Nomme les parts égales · Pour s’entraîner

Chaque bande est un tout. Compte et nomme les parts grises : par exemple, 2 tiers. Utilise demis, tiers ou quarts.

Prénom: _____ Date: _____

1.



2.



3.



4.



5.



6.



Nomme les parts égales · Pour s’entraîner

Chaque bande est un tout. Compte et nomme les parts grises : par exemple, 2 tiers. Utilise demis, tiers ou quarts.

Prénom: _____ Date: _____

1.



2.



3.



4.



5.



6.



Nomme les parts égales · Pour s’entraîner

Chaque bande est un tout. Compte et nomme les parts grises : par exemple, 2 tiers. Utilise demis, tiers ou quarts.

Prénom: _____ Date: _____

1.

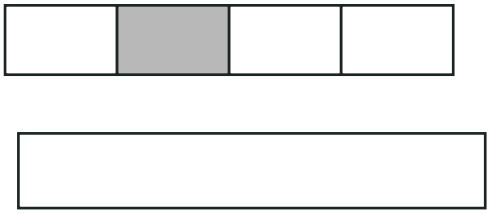

2.

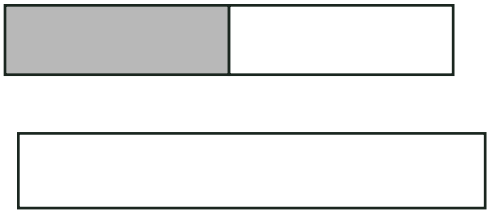

3.

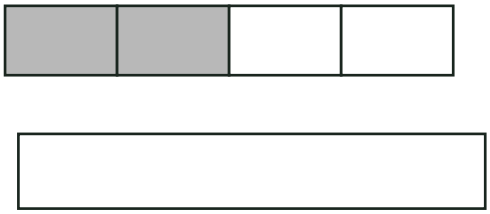

4.

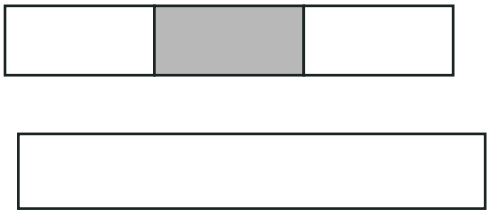

5.



6.

