Benenne die gleichen Teile · Zusätzliche Übungen

Jeder Streifen ist ein Ganzes. Zähle und benenne die grauen Teile: zum Beispiel 2 Drittel. Nutze Hälften, Drittel oder Viertel.

Name: _____ Datum: _____

1.





2.





3.





4.





5.





6.





Benenne die gleichen Teile · Zusätzliche Übungen

Jeder Streifen ist ein Ganzes. Zähle und benenne die grauen Teile: zum Beispiel 2 Drittel. Nutze Hälften, Drittel oder Viertel.

Name: _____ Datum: _____

1.



2.



3.



4.



5.



6.



Benenne die gleichen Teile · Zusätzliche Übungen

Jeder Streifen ist ein Ganzes. Zähle und benenne die grauen Teile: zum Beispiel 2 Drittel. Nutze Hälften, Drittel oder Viertel.

Name: _____ Datum: _____

1.

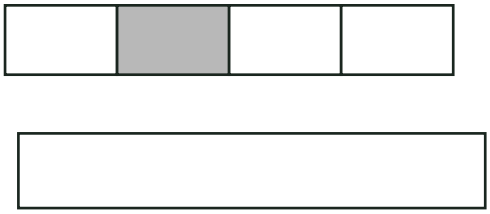

2.

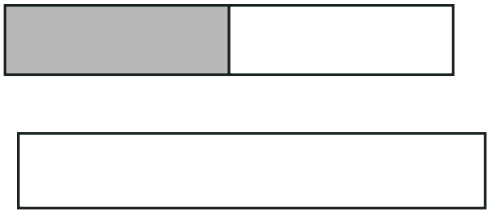

3.

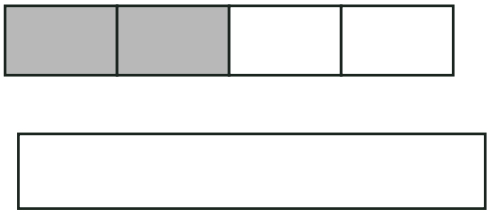

4.

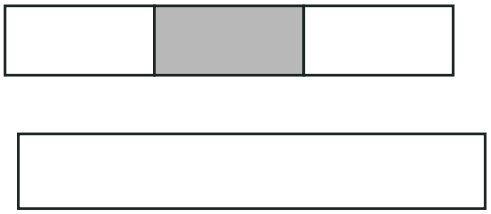

5.



6.

