Fractions : cinquièmes et dixièmes · Cahier 03

Écris la fraction grisée sous la forme a/b. Chaque bande est un tout partagé en 2, 3, 4, 5 ou 10 parts égales. Garde le dénominateur du dessin.

Prénom: _____ Date: _____

1.



2.



3.



4.



5.



6.



Fractions : cinquièmes et dixièmes · Cahier 03

Écris la fraction grisée sous la forme a/b. Chaque bande est un tout partagé en 2, 3, 4, 5 ou 10 parts égales. Garde le dénominateur du dessin.

Prénom: _____ Date: _____

1.



2.



3.



4.



5.



6.



Fractions : cinquièmes et dixièmes · Cahier 03

Écris la fraction grisée sous la forme a/b. Chaque bande est un tout partagé en 2, 3, 4, 5 ou 10 parts égales. Garde le dénominateur du dessin.

Prénom: _____ Date: _____

1.



2.



3.



4.



5.



6.



Fractions : cinquièmes et dixièmes · Cahier 03

Écris la fraction grisée sous la forme a/b. Chaque bande est un tout partagé en 2, 3, 4, 5 ou 10 parts égales. Garde le dénominateur du dessin.

Prénom: _____ Date: _____

1.



2.



3.



4.



5.



6.



Fractions : cinquièmes et dixièmes · Cahier 03

Écris la fraction grisée sous la forme a/b. Chaque bande est un tout partagé en 2, 3, 4, 5 ou 10 parts égales. Garde le dénominateur du dessin.

Prénom: _____ Date: _____

1.

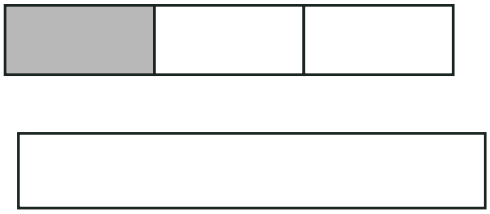

2.

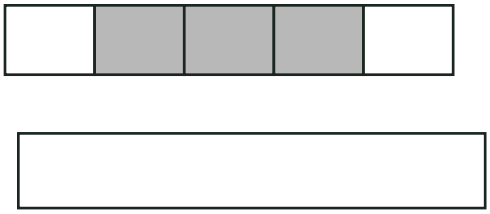

3.

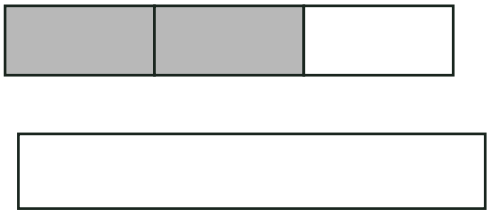

4.

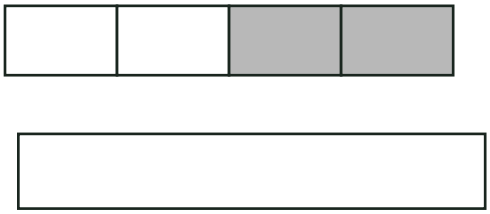

5.

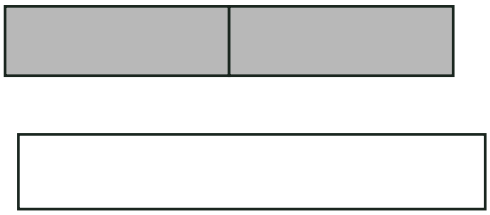

6.

