Unir cantidades · Cuaderno 12

Cuenta los cuadrados. Une cada grupo de la izquierda con el grupo de la derecha que tenga la misma cantidad.

Nombre: _____ Fecha: _____

1 

2 

3 

4 

5 


A


B


C


D


E

Unir cantidades · Cuaderno 12

Cuenta los cuadrados. Une cada grupo de la izquierda con el grupo de la derecha que tenga la misma cantidad.

Nombre: _____ Fecha: _____

1 

2 

3 

4 

5 

 A

 B

 C

 D

 E

Unir cantidades · Cuaderno 12

Cuenta los cuadrados. Une cada grupo de la izquierda con el grupo de la derecha que tenga la misma cantidad.

Nombre: _____ Fecha: _____

1 

2 

3 

4 

5 

A 

B 

C 

D 

E 

Unir cantidades · Cuaderno 12

Cuenta los cuadrados. Une cada grupo de la izquierda con el grupo de la derecha que tenga la misma cantidad.

Nombre: _____ Fecha: _____

1 

2 

3 

4 

5 

 A

 B

 C

 D

 E

Unir cantidades · Cuaderno 12

Cuenta los cuadrados. Une cada grupo de la izquierda con el grupo de la derecha que tenga la misma cantidad.

Nombre: _____ Fecha: _____

1 



A

2 



B

3 



C

4 



D

5 



E