Mengen zuordnen · Übungsheft 12

Zähle die Quadrate. Verbinde jede Gruppe links mit der Gruppe rechts, die gleich viele Quadrate enthält.

Name: _____ Datum: _____



Mengen zuordnen · Übungsheft 12

Zähle die Quadrate. Verbinde jede Gruppe links mit der Gruppe rechts, die gleich viele Quadrate enthält.

Name: _____ Datum: _____

1



2



3



4



5





A



B



C



D



E

Mengen zuordnen · Übungsheft 12

Zähle die Quadrate. Verbinde jede Gruppe links mit der Gruppe rechts, die gleich viele Quadrate enthält.

Name: _____ Datum: _____



Mengen zuordnen · Übungsheft 12

Zähle die Quadrate. Verbinde jede Gruppe links mit der Gruppe rechts, die gleich viele Quadrate enthält.

Name: _____ Datum: _____

1			A
2			B
3			C
4			D
5			E

Mengen zuordnen · Übungsheft 12

Zähle die Quadrate. Verbinde jede Gruppe links mit der Gruppe rechts, die gleich viele Quadrate enthält.

Name: _____ Datum: _____

