Partager en groupes égaux · Cahier 01

Chaque rangée est un groupe égal. Compte les carrés par rangée. Divise le total par le nombre de rangées et écris le nombre de carrés dans chaque groupe.

Prénom: _____ Date: _____

20 ÷ 5 = ☐



10 ÷ 2 = ☐



8 ÷ 4 = ☐



12 ÷ 3 = ☐



10 ÷ 5 = ☐



6 ÷ 2 = ☐



Partager en groupes égaux · Cahier 01

Chaque rangée est un groupe égal. Compte les carrés par rangée. Divise le total par le nombre de rangées et écris le nombre de carrés dans chaque groupe.

Prénom: _____ Date: _____

$9 \div 3 =$ ☐



$6 \div 3 =$ ☐



$4 \div 2 =$ ☐



$8 \div 4 =$ ☐



$2 \div 2 =$ ☐



$10 \div 2 =$ ☐



Partager en groupes égaux · Cahier 01

Chaque rangée est un groupe égal. Compte les carrés par rangée. Divise le total par le nombre de rangées et écris le nombre de carrés dans chaque groupe.

Prénom: _____ Date: _____

$2 \div 2 =$ ☐



$6 \div 2 =$ ☐



$8 \div 4 =$ ☐



$20 \div 4 =$ ☐



$4 \div 4 =$ ☐



$8 \div 2 =$ ☐



Partager en groupes égaux · Cahier 01

Chaque rangée est un groupe égal. Compte les carrés par rangée. Divise le total par le nombre de rangées et écris le nombre de carrés dans chaque groupe.

Prénom: _____ Date: _____

5 ÷ 5 = ☐



8 ÷ 4 = ☐



20 ÷ 5 = ☐



4 ÷ 4 = ☐



6 ÷ 2 = ☐



12 ÷ 3 = ☐



Partager en groupes égaux · Cahier 01

Chaque rangée est un groupe égal. Compte les carrés par rangée. Divise le total par le nombre de rangées et écris le nombre de carrés dans chaque groupe.

Prénom: _____ Date: _____

20 ÷ 5 = ☐



16 ÷ 4 = ☐



12 ÷ 3 = ☐



6 ÷ 3 = ☐



4 ÷ 2 = ☐



3 ÷ 3 = ☐

