Repartos en grupos iguales · Cuaderno 01

Cada fila es un grupo igual. Cuenta los cuadrados de cada fila. Divide el total entre el número de filas y escribe cuántos hay en cada grupo.

Nombre: _____ Fecha: _____

20 ÷ 5 = **4**



10 ÷ 2 = **5**



8 ÷ 4 = **2**



12 ÷ 3 = **4**



10 ÷ 5 = **2**



6 ÷ 2 = **3**



Repartos en grupos iguales · Cuaderno 01

Cada fila es un grupo igual. Cuenta los cuadrados de cada fila. Divide el total entre el número de filas y escribe cuántos hay en cada grupo.

Nombre: _____ Fecha: _____

9 ÷ 3 = **3**



6 ÷ 3 = **2**



4 ÷ 2 = **2**



8 ÷ 4 = **2**



2 ÷ 2 = **1**



10 ÷ 2 = **5**



Repartos en grupos iguales · Cuaderno 01

Cada fila es un grupo igual. Cuenta los cuadrados de cada fila. Divide el total entre el número de filas y escribe cuántos hay en cada grupo.

Nombre: _____ Fecha: _____

$2 \div 2 =$ 1



$6 \div 2 =$ 3



$8 \div 4 =$ 2



$20 \div 4 =$ 5



$4 \div 4 =$ 1



$8 \div 2 =$ 4



Repartos en grupos iguales · Cuaderno 01

Cada fila es un grupo igual. Cuenta los cuadrados de cada fila. Divide el total entre el número de filas y escribe cuántos hay en cada grupo.

Nombre: _____ Fecha: _____

5 ÷ 5 = **1**



8 ÷ 4 = **2**



20 ÷ 5 = **4**



4 ÷ 4 = **1**



6 ÷ 2 = **3**



12 ÷ 3 = **4**



Repartos en grupos iguales · Cuaderno 01

Cada fila es un grupo igual. Cuenta los cuadrados de cada fila. Divide el total entre el número de filas y escribe cuántos hay en cada grupo.

Nombre: _____

Fecha: _____

20 ÷ 5 = 4



16 ÷ 4 = 4



12 ÷ 3 = 4



6 ÷ 3 = 2



4 ÷ 2 = 2



3 ÷ 3 = 1

