Repartos en grupos iguales · Cuaderno 01

Cada fila es un grupo igual. Cuenta los cuadrados de cada fila. Divide el total entre el número de filas y escribe cuántos hay en cada grupo.

Nombre: _____ Fecha: _____

20 ÷ 5 = ☐



10 ÷ 2 = ☐



8 ÷ 4 = ☐



12 ÷ 3 = ☐



10 ÷ 5 = ☐



6 ÷ 2 = ☐



Repartos en grupos iguales · Cuaderno 01

Cada fila es un grupo igual. Cuenta los cuadrados de cada fila. Divide el total entre el número de filas y escribe cuántos hay en cada grupo.

Nombre: _____ Fecha: _____

9 ÷ 3 = ☐



6 ÷ 3 = ☐



4 ÷ 2 = ☐



8 ÷ 4 = ☐



2 ÷ 2 = ☐



10 ÷ 2 = ☐



Repartos en grupos iguales · Cuaderno 01

Cada fila es un grupo igual. Cuenta los cuadrados de cada fila. Divide el total entre el número de filas y escribe cuántos hay en cada grupo.

Nombre: _____ Fecha: _____

$2 \div 2 =$ ☐



$6 \div 2 =$ ☐



$8 \div 4 =$ ☐



$20 \div 4 =$ ☐



$4 \div 4 =$ ☐



$8 \div 2 =$ ☐



Repartos en grupos iguales · Cuaderno 01

Cada fila es un grupo igual. Cuenta los cuadrados de cada fila. Divide el total entre el número de filas y escribe cuántos hay en cada grupo.

Nombre: _____ Fecha: _____

5 ÷ 5 = ☐



8 ÷ 4 = ☐



20 ÷ 5 = ☐



4 ÷ 4 = ☐



6 ÷ 2 = ☐



12 ÷ 3 = ☐



Repartos en grupos iguales · Cuaderno 01

Cada fila es un grupo igual. Cuenta los cuadrados de cada fila. Divide el total entre el número de filas y escribe cuántos hay en cada grupo.

Nombre: _____ Fecha: _____

20 ÷ 5 = ☐



16 ÷ 4 = ☐



12 ÷ 3 = ☐



6 ÷ 3 = ☐



4 ÷ 2 = ☐



3 ÷ 3 = ☐

