In gleiche Gruppen aufteilen · Übungsheft 01

Jede Reihe ist eine gleich große Gruppe. Zähle die Kästchen pro Reihe. Teile die Gesamtzahl durch die Anzahl der Reihen. Wie viele sind in jeder Gruppe?

Name: _____ Datum: _____

20 : 5 = **4**



10 : 2 = **5**



8 : 4 = **2**



12 : 3 = **4**



10 : 5 = **2**



6 : 2 = **3**



In gleiche Gruppen aufteilen · Übungsheft 01

Jede Reihe ist eine gleich große Gruppe. Zähle die Kästchen pro Reihe. Teile die Gesamtzahl durch die Anzahl der Reihen. Wie viele sind in jeder Gruppe?

Name: _____ Datum: _____

9 : 3 = **3**



6 : 3 = **2**



4 : 2 = **2**



8 : 4 = **2**



2 : 2 = **1**



10 : 2 = **5**



In gleiche Gruppen aufteilen · Übungsheft 01

Jede Reihe ist eine gleich große Gruppe. Zähle die Kästchen pro Reihe. Teile die Gesamtzahl durch die Anzahl der Reihen. Wie viele sind in jeder Gruppe?

Name: _____ Datum: _____

2 : 2 = **1**



6 : 2 = **3**



8 : 4 = **2**



20 : 4 = **5**



4 : 4 = **1**



8 : 2 = **4**



In gleiche Gruppen aufteilen · Übungsheft 01

Jede Reihe ist eine gleich große Gruppe. Zähle die Kästchen pro Reihe. Teile die Gesamtzahl durch die Anzahl der Reihen. Wie viele sind in jeder Gruppe?

Name: _____ Datum: _____

5 : 5 = **1**



8 : 4 = **2**



20 : 5 = **4**



4 : 4 = **1**



6 : 2 = **3**



12 : 3 = **4**



In gleiche Gruppen aufteilen · Übungsheft 01

Jede Reihe ist eine gleich große Gruppe. Zähle die Kästchen pro Reihe. Teile die Gesamtzahl durch die Anzahl der Reihen. Wie viele sind in jeder Gruppe?

Name: _____ Datum: _____

20 : 5 = **4**



16 : 4 = **4**



12 : 3 = **4**



6 : 3 = **2**



4 : 2 = **2**



3 : 3 = **1**

