In gleiche Gruppen aufteilen · Übungsheft 01

Jede Reihe ist eine gleich große Gruppe. Zähle die Kästchen pro Reihe. Teile die Gesamtzahl durch die Anzahl der Reihen. Wie viele sind in jeder Gruppe?

Name: _____ Datum: _____

20 : 5 = ☐



10 : 2 = ☐



8 : 4 = ☐



12 : 3 = ☐



10 : 5 = ☐



6 : 2 = ☐



In gleiche Gruppen aufteilen · Übungsheft 01

Jede Reihe ist eine gleich große Gruppe. Zähle die Kästchen pro Reihe. Teile die Gesamtzahl durch die Anzahl der Reihen. Wie viele sind in jeder Gruppe?

Name: _____ Datum: _____

9 : 3 = ☐



6 : 3 = ☐



4 : 2 = ☐



8 : 4 = ☐



2 : 2 = ☐



10 : 2 = ☐



In gleiche Gruppen aufteilen · Übungsheft 01

Jede Reihe ist eine gleich große Gruppe. Zähle die Kästchen pro Reihe. Teile die Gesamtzahl durch die Anzahl der Reihen. Wie viele sind in jeder Gruppe?

Name: _____ Datum: _____

2 : 2 = ☐



6 : 2 = ☐



8 : 4 = ☐



20 : 4 = ☐



4 : 4 = ☐



8 : 2 = ☐



In gleiche Gruppen aufteilen · Übungsheft 01

Jede Reihe ist eine gleich große Gruppe. Zähle die Kästchen pro Reihe. Teile die Gesamtzahl durch die Anzahl der Reihen. Wie viele sind in jeder Gruppe?

Name: _____ Datum: _____

5 : 5 = ☐



8 : 4 = ☐



20 : 5 = ☐



4 : 4 = ☐



6 : 2 = ☐



12 : 3 = ☐



In gleiche Gruppen aufteilen · Übungsheft 01

Jede Reihe ist eine gleich große Gruppe. Zähle die Kästchen pro Reihe. Teile die Gesamtzahl durch die Anzahl der Reihen. Wie viele sind in jeder Gruppe?

Name: _____ Datum: _____

20 : 5 = ☐



16 : 4 = ☐



12 : 3 = ☐



6 : 3 = ☐



4 : 2 = ☐



3 : 3 = ☐

