Repartos en grupos iguales · Práctica adicional

Cada fila es un grupo igual. Cuenta los cuadrados de cada fila. Divide el total entre el número de filas y escribe cuántos hay en cada grupo.

Nombre: _____ Fecha: _____

15 ÷ 3 = 5



10 ÷ 2 = 5



3 ÷ 3 = 1



12 ÷ 4 = 3



15 ÷ 5 = 3



2 ÷ 2 = 1



Repartos en grupos iguales · Práctica adicional

Cada fila es un grupo igual. Cuenta los cuadrados de cada fila. Divide el total entre el número de filas y escribe cuántos hay en cada grupo.

Nombre: _____ Fecha: _____

3 ÷ 3 = 1



6 ÷ 3 = 2



8 ÷ 2 = 4



15 ÷ 5 = 3



20 ÷ 5 = 4



10 ÷ 2 = 5



Repartos en grupos iguales · Práctica adicional

Cada fila es un grupo igual. Cuenta los cuadrados de cada fila. Divide el total entre el número de filas y escribe cuántos hay en cada grupo.

Nombre: _____

Fecha: _____

8 ÷ 2 = 4



20 ÷ 4 = 5



9 ÷ 3 = 3



5 ÷ 5 = 1



6 ÷ 2 = 3



2 ÷ 2 = 1

