Repartos en grupos iguales · Práctica adicional

Cada fila es un grupo igual. Cuenta los cuadrados de cada fila. Divide el total entre el número de filas y escribe cuántos hay en cada grupo.

Nombre: _____ Fecha: _____

15 ÷ 3 = ☐



10 ÷ 2 = ☐



3 ÷ 3 = ☐



12 ÷ 4 = ☐



15 ÷ 5 = ☐



2 ÷ 2 = ☐



Repartos en grupos iguales · Práctica adicional

Cada fila es un grupo igual. Cuenta los cuadrados de cada fila. Divide el total entre el número de filas y escribe cuántos hay en cada grupo.

Nombre: _____ Fecha: _____

3 ÷ 3 = ☐



6 ÷ 3 = ☐



8 ÷ 2 = ☐



15 ÷ 5 = ☐



20 ÷ 5 = ☐



10 ÷ 2 = ☐



Repartos en grupos iguales · Práctica adicional

Cada fila es un grupo igual. Cuenta los cuadrados de cada fila. Divide el total entre el número de filas y escribe cuántos hay en cada grupo.

Nombre: _____ Fecha: _____

8 ÷ 2 = ☐



20 ÷ 4 = ☐



9 ÷ 3 = ☐



5 ÷ 5 = ☐



6 ÷ 2 = ☐



2 ÷ 2 = ☐

