In gleiche Gruppen aufteilen · Zusätzliche Übungen

Jede Reihe ist eine gleich große Gruppe. Zähle die Kästchen pro Reihe. Teile die Gesamtzahl durch die Anzahl der Reihen. Wie viele sind in jeder Gruppe?

Name: _____ Datum: _____

15 : 3 = 5



10 : 2 = 5



3 : 3 = 1



12 : 4 = 3



15 : 5 = 3



2 : 2 = 1



In gleiche Gruppen aufteilen · Zusätzliche Übungen

Jede Reihe ist eine gleich große Gruppe. Zähle die Kästchen pro Reihe. Teile die Gesamtzahl durch die Anzahl der Reihen. Wie viele sind in jeder Gruppe?

Name: _____ Datum: _____

3 : 3 = 1



6 : 3 = 2



8 : 2 = 4



15 : 5 = 3



20 : 5 = 4



10 : 2 = 5



In gleiche Gruppen aufteilen · Zusätzliche Übungen

Jede Reihe ist eine gleich große Gruppe. Zähle die Kästchen pro Reihe. Teile die Gesamtzahl durch die Anzahl der Reihen. Wie viele sind in jeder Gruppe?

Name: _____ Datum: _____

8 : 2 = **4**



20 : 4 = **5**



9 : 3 = **3**



5 : 5 = **1**



6 : 2 = **3**



2 : 2 = **1**

