Sigue las flechas · 3.º de Primaria · Cuaderno 03

Empieza en el círculo. Lee las flechas de izquierda a derecha y pasa a la fila siguiente si la hay. El número indica cuántas casillas debes avanzar. Dibuja el recorrido.

Nombre: _____

Fecha: _____

↓ 5	← 5	↑ 3	→ 2	↑ 2
→ 2	↑ 2	← 3	↓ 2	← 1

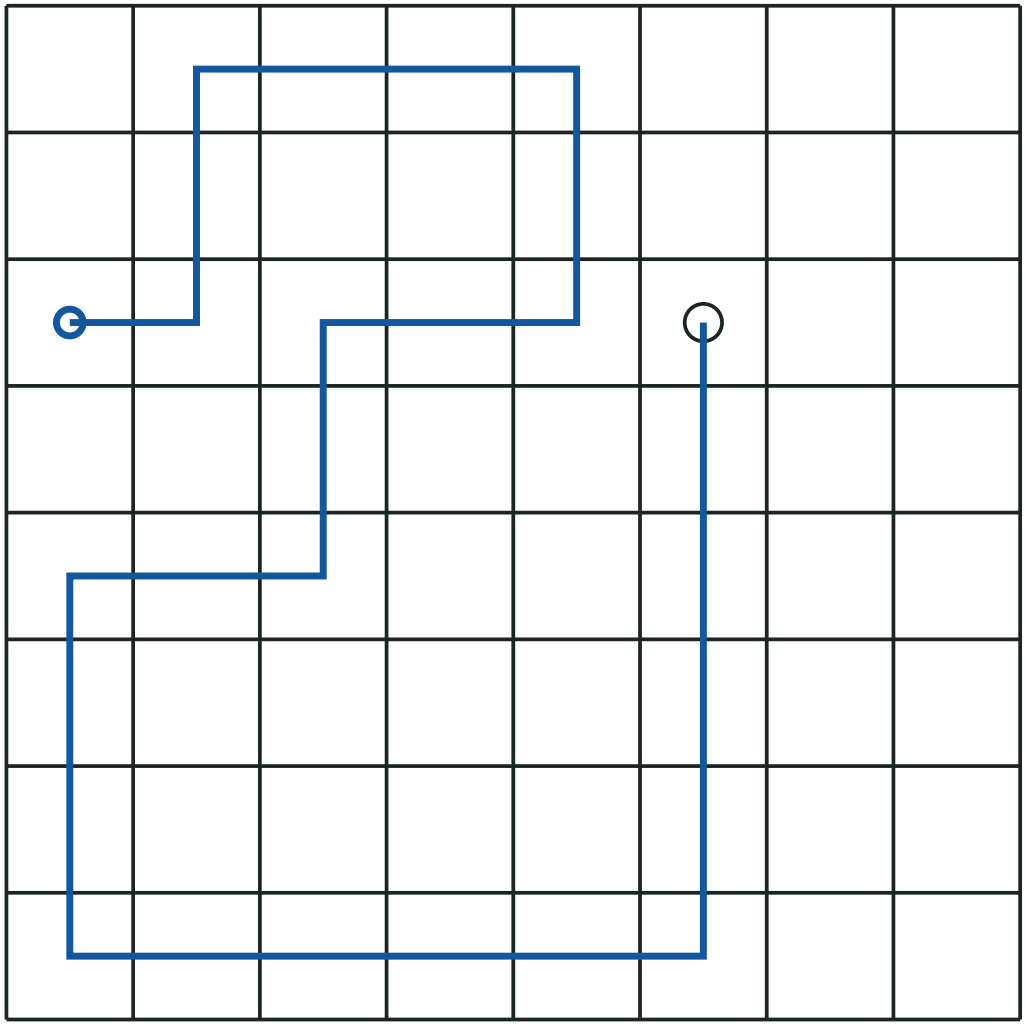

Sigue las flechas · 3.º de Primaria · Cuaderno 03

Empieza en el círculo. Lee las flechas de izquierda a derecha y pasa a la fila siguiente si la hay. El número indica cuántas casillas debes avanzar. Dibuja el recorrido.

Nombre: _____

Fecha: _____

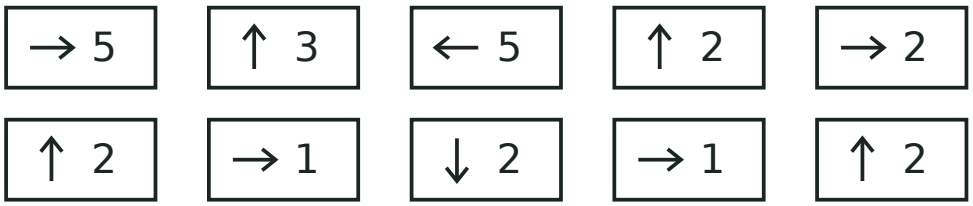

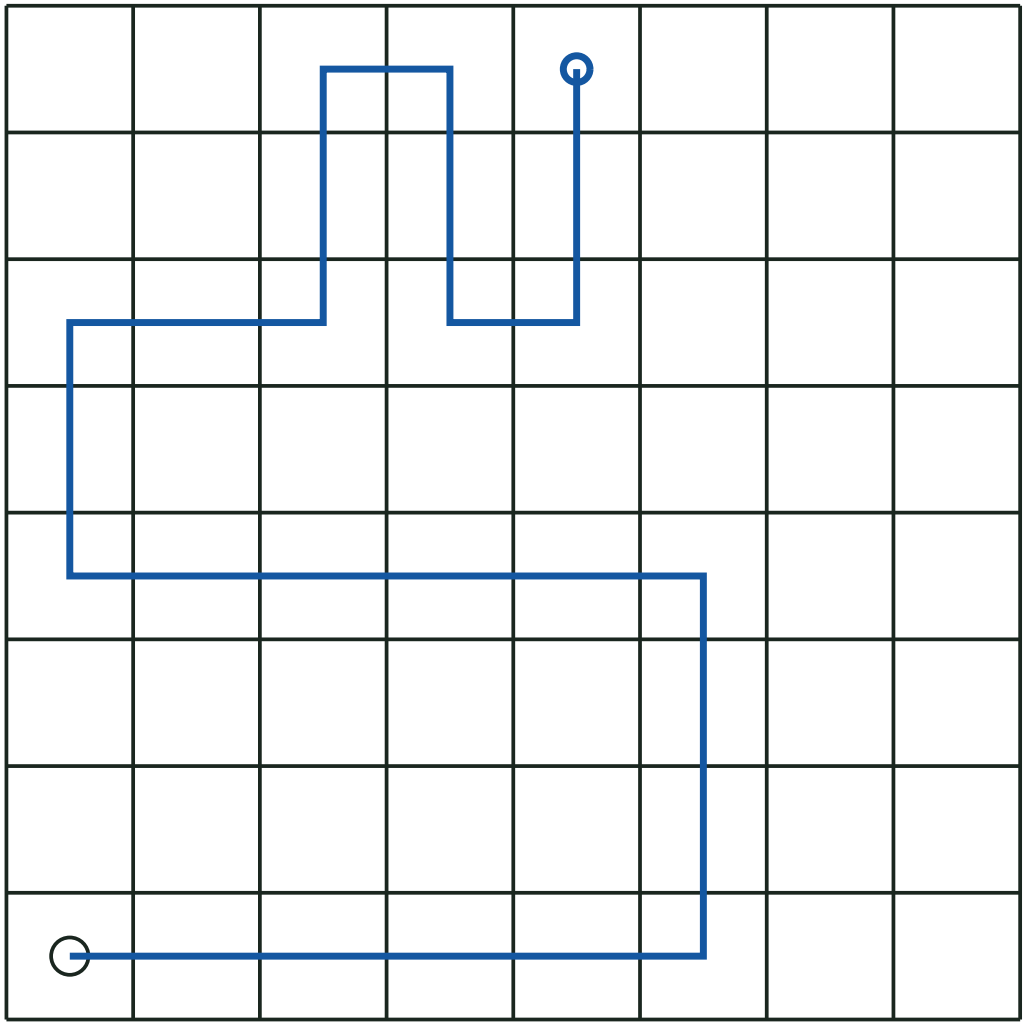

Sigue las flechas · 3.º de Primaria · Cuaderno 03

Empieza en el círculo. Lee las flechas de izquierda a derecha y pasa a la fila siguiente si la hay. El número indica cuántas casillas debes avanzar. Dibuja el recorrido.

Nombre: _____

Fecha: _____

↑ 3	→ 3	↓ 5	← 4	↑ 2
← 1	↓ 2	← 1	↓ 1	→ 3

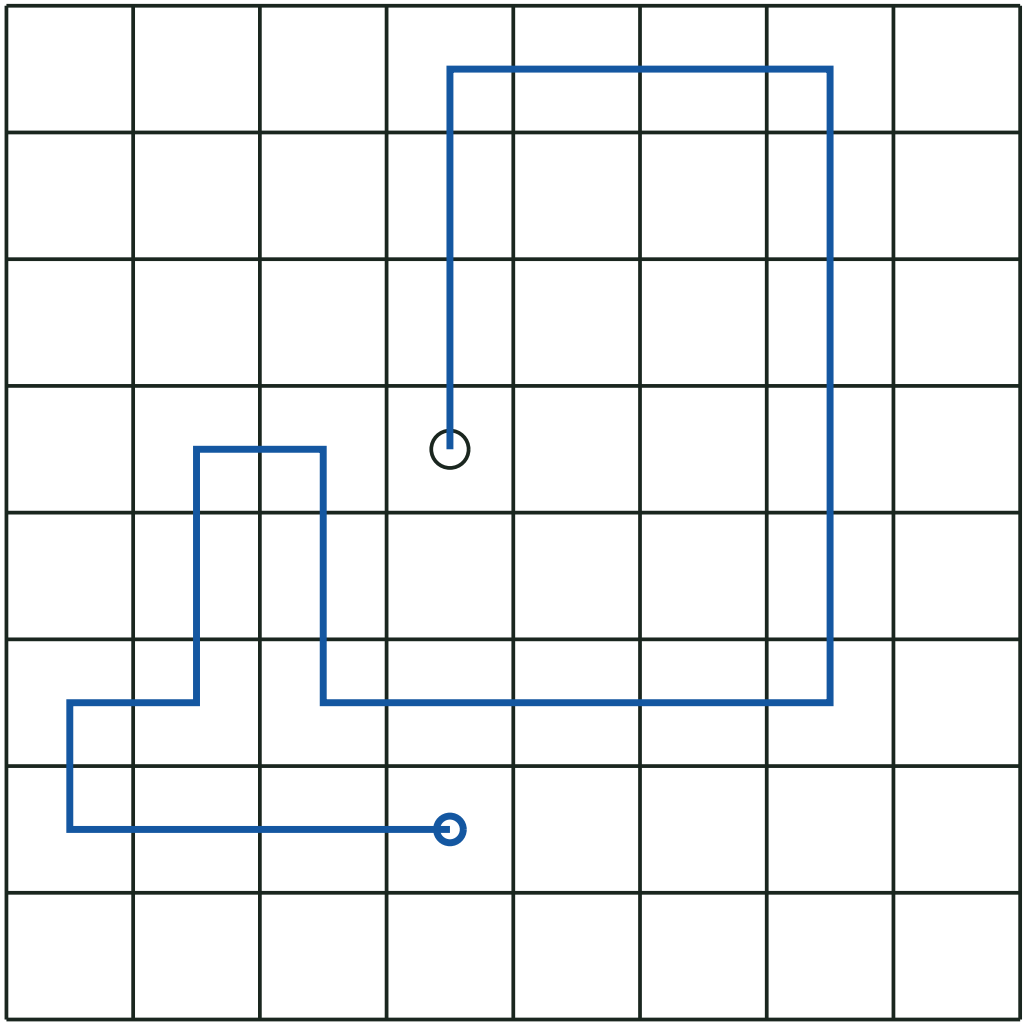

Sigue las flechas · 3.º de Primaria · Cuaderno 03

Empieza en el círculo. Lee las flechas de izquierda a derecha y pasa a la fila siguiente si la hay. El número indica cuántas casillas debes avanzar. Dibuja el recorrido.

Nombre: _____

Fecha: _____

↓ 1	→ 1	↓ 3	← 1	↓ 1
← 1	↑ 5	← 5	↓ 2	→ 1

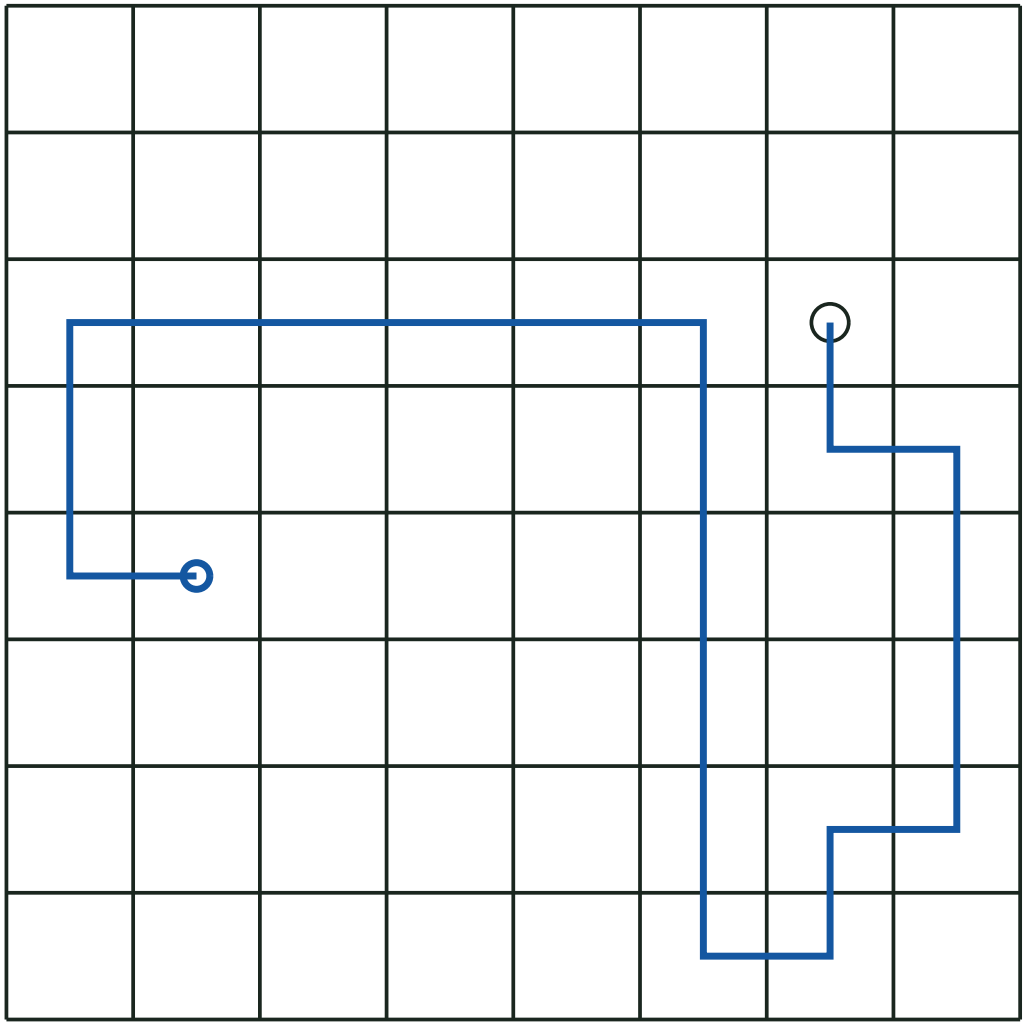

Sigue las flechas · 3.º de Primaria · Cuaderno 03

Empieza en el círculo. Lee las flechas de izquierda a derecha y pasa a la fila siguiente si la hay. El número indica cuántas casillas debes avanzar. Dibuja el recorrido.

Nombre: _____

Fecha: _____

