Compare des nombres à deux chiffres · Cahier

Suis les consignes sur chaque page. Un adulte peut les lire à voix haute.

Prénom: _____ Date: _____

Mangeoires des animaux

Chaque barre vaut dix. Chaque point vaut un.
Compare la valeur de gauche à celle de droite. Écris <, > ou =.

1		<	40
2		>	23
3		=	32
4		<	53
5		>	52

Compare des nombres à deux chiffres · Cahier

Suis les consignes sur chaque page. Un adulte peut les lire à voix haute.

Prénom: _____ Date: _____

La file des colis

Chaque barre vaut dix. Chaque point vaut un.
Écris les trois valeurs en chiffres dans les cases du bas, de la plus petite à la plus grande.

1



18 → 19 → 20

2



23 → 24 → 25

3



12 → 19 → 53

4



29 → 60 → 65

5



12 → 57 → 65

Compare des nombres à deux chiffres · Cahier

Suis les consignes sur chaque page. Un adulte peut les lire à voix haute.

Prénom: _____ Date: _____

Étiquettes jumelles

Chaque barre vaut dix. Chaque point vaut un.
Entoure le nombre qui a la même valeur que le dessin avant la flèche.

1  → **58** **60**

2  → **25** **27**

3  → **55** **32**

4  → **65** **25**

5  → **39** **20**