Compare des nombres à deux chiffres · Cahier

Suis les consignes sur chaque page. Un adulte peut les lire à voix haute.

Prénom: _____ Date: _____

Mangeoires des animaux

Chaque barre vaut dix. Chaque point vaut un.
Compare la valeur de gauche à celle de droite. Écris <, > ou =.

1  ☐ **40**

2  ☐ **23**

3  ☐ **32**

4  ☐ **53**

5  ☐ **52**

Compare des nombres à deux chiffres · Cahier

Suis les consignes sur chaque page. Un adulte peut les lire à voix haute.

Prénom: _____ Date: _____

La file des colis

Chaque barre vaut dix. Chaque point vaut un.
Écris les trois valeurs en chiffres dans les cases du bas, de la plus petite à la plus grande.

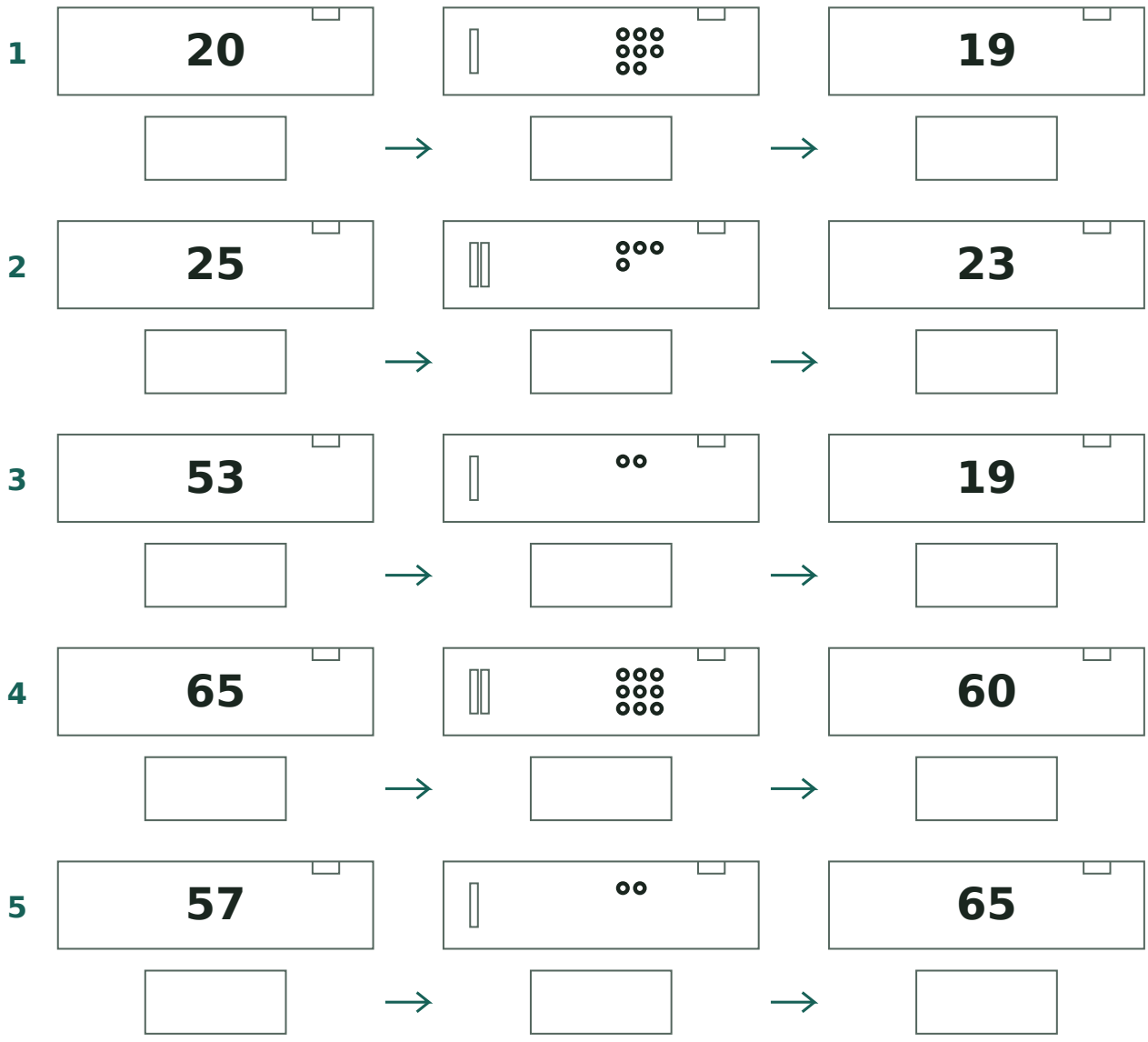

Compare des nombres à deux chiffres · Cahier

Suis les consignes sur chaque page. Un adulte peut les lire à voix haute.

Prénom: _____ Date: _____

Étiquettes jumelles

Chaque barre vaut dix. Chaque point vaut un.
Entoure le nombre qui a la même valeur que le dessin avant la flèche.

1  → **58** **60**

2  → **25** **27**

3  → **55** **32**

4  → **65** **25**

5  → **39** **20**