Vergleiche zweistellige Zahlen · Übungsheft

Beachte die Aufgaben auf jeder Seite. Ein Erwachsener kann sie vorlesen.

Name: _____ Datum: _____

Futtertröge

Jede Stange steht für zehn. Jeder Punkt steht für eins.
Vergleiche den linken Wert mit dem rechten. Schreibe <, > oder =.

1		<	40
2		>	23
3		=	32
4		<	53
5		>	52

Vergleiche zweistellige Zahlen · Übungsheft

Beachte die Aufgaben auf jeder Seite. Ein Erwachsener kann sie vorlesen.

Name: _____ Datum: _____

Pakete in der Reihe

Jede Stange steht für zehn. Jeder Punkt steht für eins.
Schreibe die drei Werte als Zahlen in die Kästchen unten, vom kleinsten zum größten.

1



18 → 19 → 20

2



23 → 24 → 25

3



12 → 19 → 53

4



29 → 60 → 65

5



12 → 57 → 65

Vergleiche zweistellige Zahlen · Übungsheft

Beachte die Aufgaben auf jeder Seite. Ein Erwachsener kann sie vorlesen.

Name: _____ Datum: _____

Zwillingsschilder

Jede Stange steht für zehn. Jeder Punkt steht für eins.
Kreise die Zahl mit demselben Wert wie das Bild vor dem Pfeil ein.

1  → **58** **60**

2  → **25** **27**

3  → **55** **32**

4  → **65** **25**

5  → **39** **20**