Compare des nombres à deux chiffres · Pour s’entraîner

Suis les consignes sur chaque page. Un adulte peut les lire à voix haute.

Prénom: _____

Date: _____

Mangeoires des animaux

Chaque barre vaut dix. Chaque point vaut un.
Compare la valeur de gauche à celle de droite. Écris <, > ou =.

1		<	60
2		>	47
3		=	68
4		<	32
5		>	59

Compare des nombres à deux chiffres · Pour s’entraîner

Suis les consignes sur chaque page. Un adulte peut les lire à voix haute.

Prénom: _____ Date: _____

La file des colis

Chaque barre vaut dix. Chaque point vaut un.
Écris les trois valeurs en chiffres dans les cases du bas, de la plus petite à la plus grande.

1

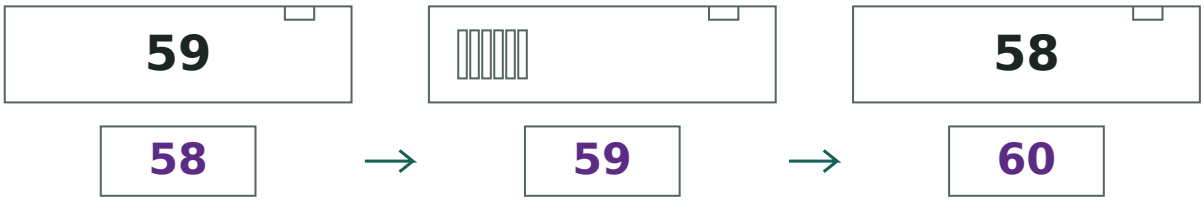

58 → 59 → 60

2

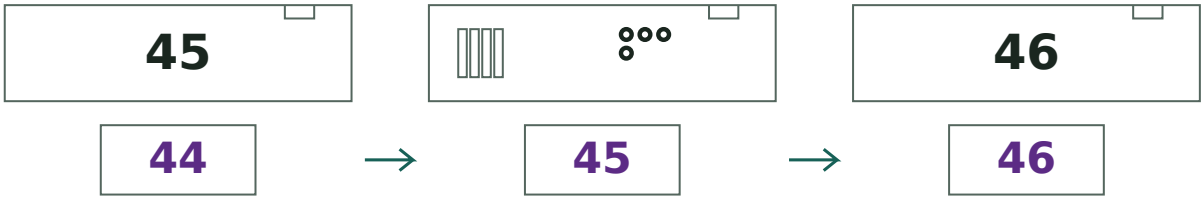

44 → 45 → 46

3

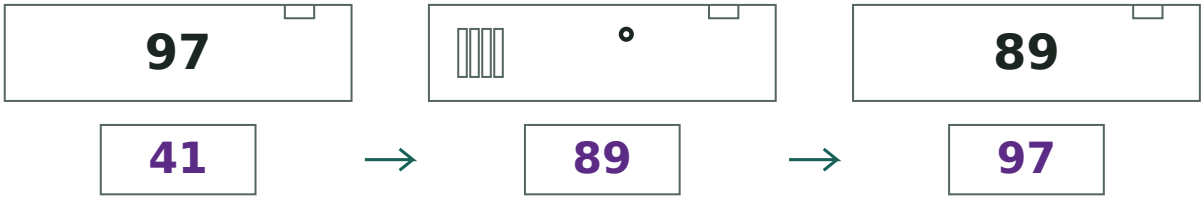

41 → 89 → 97

4

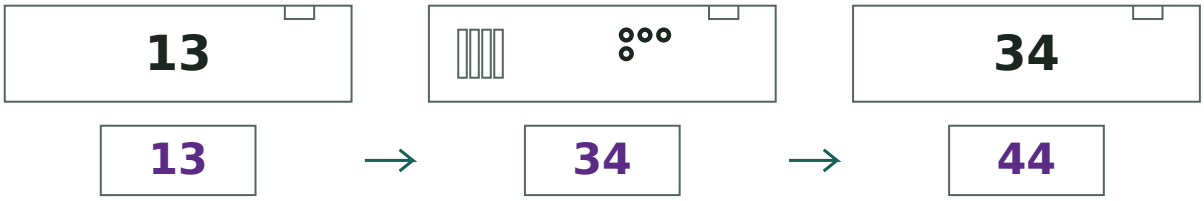

13 → 34 → 44

5



19 → 32 → 79

Compare des nombres à deux chiffres · Pour s’entraîner

Suis les consignes sur chaque page. Un adulte peut les lire à voix haute.

Prénom: _____

Date: _____

Étiquettes jumelles

Chaque barre vaut dix. Chaque point vaut un.
Entoure le nombre qui a la même valeur que le dessin avant la flèche.

1  → 70 **68**

2  → 29 **27**

3  → **84** 17

4  → 82 **71**

5  → **13** 89