Compara números de dos cifras · Práctica adicional

Sigue las indicaciones de cada página. Un adulto puede leerlas en voz alta.

Nombre: _____ Fecha: _____

Comederos de animales

Cada barra vale diez. Cada punto vale uno.
Compara el valor de la izquierda con el de la derecha. Escribe <, > o =.

1		<	60
2		>	47
3		=	68
4		<	32
5		>	59

Compara números de dos cifras · Práctica adicional

Sigue las indicaciones de cada página. Un adulto puede leerlas en voz alta.

Nombre: _____ Fecha: _____

La fila de paquetes

Cada barra vale diez. Cada punto vale uno.
Escribe los tres valores con cifras en las casillas de abajo, de menor a mayor.

1

59		58
58	→ 59	→ 60

2

45		46
44	→ 45	→ 46

3

97		89
41	→ 89	→ 97

4

13		34
13	→ 34	→ 44

5

32		79
19	→ 32	→ 79

Compara números de dos cifras · Práctica adicional

Sigue las indicaciones de cada página. Un adulto puede leerlas en voz alta.

Nombre: _____ Fecha: _____

Etiquetas gemelas

Cada barra vale diez. Cada punto vale uno.
Rodea el número con el mismo valor que el dibujo de antes de la flecha.

1  → **70** **68**

2  → **29** **27**

3  → **84** **17**

4  → **82** **71**

5  → **13** **89**