Vergleiche zweistellige Zahlen · Zusätzliche Übungen

Beachte die Aufgaben auf jeder Seite. Ein Erwachsener kann sie vorlesen.

Name: _____ Datum: _____

Futtertröge

Jede Stange steht für zehn. Jeder Punkt steht für eins.
Vergleiche den linken Wert mit dem rechten. Schreibe <, > oder =.

1		<	60
2		>	47
3		=	68
4		<	32
5		>	59

Vergleiche zweistellige Zahlen · Zusätzliche Übungen

Beachte die Aufgaben auf jeder Seite. Ein Erwachsener kann sie vorlesen.

Name: _____ Datum: _____

Pakete in der Reihe

Jede Stange steht für zehn. Jeder Punkt steht für eins.
Schreibe die drei Werte als Zahlen in die Kästchen unten, vom kleinsten zum größten.

1

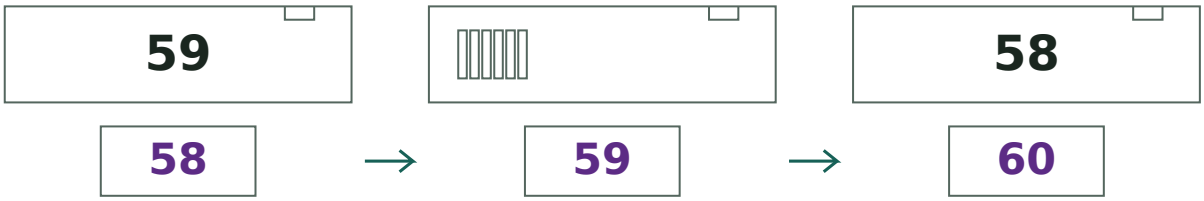

58 → 59 → 60

2

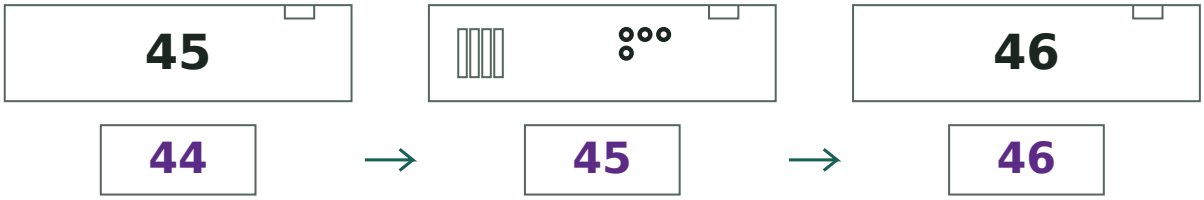

44 → 45 → 46

3

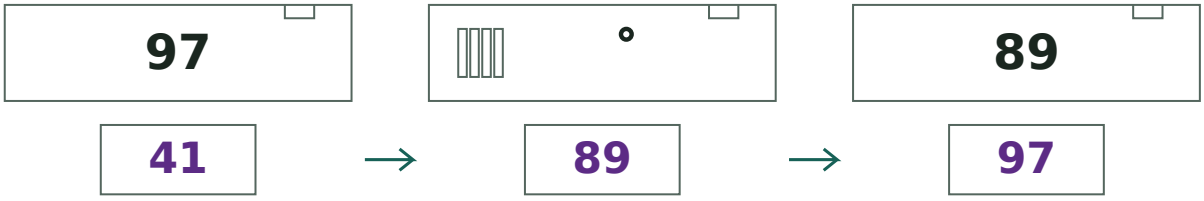

41 → 89 → 97

4

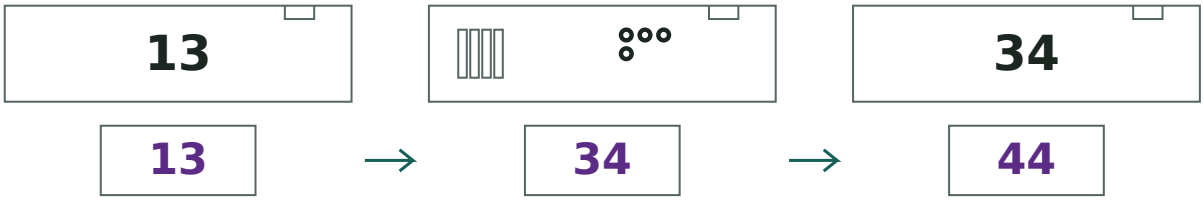

13 → 34 → 44

5



19 → 32 → 79

Vergleiche zweistellige Zahlen · Zusätzliche Übungen

Beachte die Aufgaben auf jeder Seite. Ein Erwachsener kann sie vorlesen.

Name: _____ Datum: _____

Zwillingsschilder

Jede Stange steht für zehn. Jeder Punkt steht für eins.
Kreise die Zahl mit demselben Wert wie das Bild vor dem Pfeil ein.

1  → 70 **68**

2  → 29 **27**

3  → **84** 17

4  → 82 **71**

5  → **13** 89