Vergleiche zweistellige Zahlen · Zusätzliche Übungen

Beachte die Aufgaben auf jeder Seite. Ein Erwachsener kann sie vorlesen.

Name: _____ Datum: _____

Futtertröge

Jede Stange steht für zehn. Jeder Punkt steht für eins.
Vergleiche den linken Wert mit dem rechten. Schreibe <, > oder =.

1  ☐ **60**

2  ☐ **47**

3  ☐ **68**

4  ☐ **32**

5  ☐ **59**

Vergleiche zweistellige Zahlen · Zusätzliche Übungen

Beachte die Aufgaben auf jeder Seite. Ein Erwachsener kann sie vorlesen.

Name: _____ Datum: _____

Pakete in der Reihe

Jede Stange steht für zehn. Jeder Punkt steht für eins.
Schreibe die drei Werte als Zahlen in die Kästchen unten, vom kleinsten zum größten.

1 **59** → **58**

2 **45** → **46**

3 **97** → **89**

4 **13** → **34**

5 **32** → **79**

Vergleiche zweistellige Zahlen · Zusätzliche Übungen

Beachte die Aufgaben auf jeder Seite. Ein Erwachsener kann sie vorlesen.

Name: _____ Datum: _____

Zwillingsschilder

Jede Stange steht für zehn. Jeder Punkt steht für eins.
Kreise die Zahl mit demselben Wert wie das Bild vor dem Pfeil ein.

1  → **70** **68**

2  → **29** **27**

3  → **84** **17**

4  → **82** **71**

5  → **13** **89**