Las horas en punto · Cuaderno 01

Lee las horas en punto. La aguja corta marca las horas y la larga los minutos. Escribe una hora del 1 al 12. La indicación señala el momento del día.

Nombre: _____ Fecha: _____

Desde el mediodía



3:00

Antes del mediodía



11:00

Desde el mediodía



6:00

Desde el mediodía



2:00

Desde el mediodía



8:00

Desde el mediodía



7:00

Las horas en punto · Cuaderno 01

Lee las horas en punto. La aguja corta marca las horas y la larga los minutos. Escribe una hora del 1 al 12. La indicación señala el momento del día.

Nombre: _____ Fecha: _____

Antes del mediodía



6:00

Antes del mediodía



9:00

Desde el mediodía



7:00

Desde el mediodía



2:00

Desde el mediodía



3:00

Antes del mediodía



10:00

Las horas en punto · Cuaderno 01

Lee las horas en punto. La aguja corta marca las horas y la larga los minutos. Escribe una hora del 1 al 12. La indicación señala el momento del día.

Nombre: _____ Fecha: _____

Desde el mediodía



12:00

Antes del mediodía



10:00

Desde el mediodía



8:00

Antes del mediodía



8:00

Desde el mediodía



4:00

Desde el mediodía



1:00

Las horas en punto · Cuaderno 01

Lee las horas en punto. La aguja corta marca las horas y la larga los minutos. Escribe una hora del 1 al 12. La indicación señala el momento del día.

Nombre: _____ Fecha: _____

Antes del mediodía



6:00

Antes del mediodía



8:00

Desde el mediodía



8:00

Desde el mediodía



3:00

Desde el mediodía



6:00

Desde el mediodía



12:00

Las horas en punto · Cuaderno 01

Lee las horas en punto. La aguja corta marca las horas y la larga los minutos. Escribe una hora del 1 al 12. La indicación señala el momento del día.

Nombre: _____ Fecha: _____

Antes del mediodía



9:00

Antes del mediodía



7:00

Desde el mediodía



1:00

Antes del mediodía



11:00

Desde el mediodía



12:00

Desde el mediodía



3:00