Las horas en punto · Cuaderno 01

Lee las horas en punto. La aguja corta marca las horas y la larga los minutos. Escribe una hora del 1 al 12. La indicación señala el momento del día.

Nombre: _____ Fecha: _____

Desde el mediodía



Antes del mediodía



Desde el mediodía



Desde el mediodía



Desde el mediodía



Desde el mediodía



Las horas en punto · Cuaderno 01

Lee las horas en punto. La aguja corta marca las horas y la larga los minutos. Escribe una hora del 1 al 12. La indicación señala el momento del día.

Nombre: _____ Fecha: _____

Antes del mediodía



Antes del mediodía



Desde el mediodía



Desde el mediodía



Desde el mediodía



Antes del mediodía



Las horas en punto · Cuaderno 01

Lee las horas en punto. La aguja corta marca las horas y la larga los minutos. Escribe una hora del 1 al 12. La indicación señala el momento del día.

Nombre: _____ Fecha: _____

Desde el mediodía



Antes del mediodía



Desde el mediodía



Antes del mediodía



Desde el mediodía



Desde el mediodía



Las horas en punto · Cuaderno 01

Lee las horas en punto. La aguja corta marca las horas y la larga los minutos. Escribe una hora del 1 al 12. La indicación señala el momento del día.

Nombre: _____ Fecha: _____

Antes del mediodía



Antes del mediodía



Desde el mediodía



Desde el mediodía



Desde el mediodía



Desde el mediodía



Las horas en punto · Cuaderno 01

Lee las horas en punto. La aguja corta marca las horas y la larga los minutos. Escribe una hora del 1 al 12. La indicación señala el momento del día.

Nombre: _____ Fecha: _____

Antes del mediodía



Antes del mediodía



Desde el mediodía



Antes del mediodía



Desde el mediodía



Desde el mediodía

