Volle Stunden ablesen · Übungsheft 01

Lies die volle Stunde ab. Der kurze Zeiger zeigt die Stunden, der lange die Minuten. Schreibe eine Stunde von 1 bis 12. Die Tageshälfte ist angegeben.

Name: _____ Datum: _____

Ab 12 Uhr



3 Uhr

Vor 12 Uhr



11 Uhr

Ab 12 Uhr



6 Uhr

Ab 12 Uhr



2 Uhr

Ab 12 Uhr



8 Uhr

Ab 12 Uhr



7 Uhr

Volle Stunden ablesen · Übungsheft 01

Lies die volle Stunde ab. Der kurze Zeiger zeigt die Stunden, der lange die Minuten. Schreibe eine Stunde von 1 bis 12. Die Tageshälfte ist angegeben.

Name: _____ Datum: _____

Vor 12 Uhr



6 Uhr

Vor 12 Uhr



9 Uhr

Ab 12 Uhr



7 Uhr

Ab 12 Uhr



2 Uhr

Ab 12 Uhr



3 Uhr

Vor 12 Uhr



10 Uhr

Volle Stunden ablesen · Übungsheft 01

Lies die volle Stunde ab. Der kurze Zeiger zeigt die Stunden, der lange die Minuten. Schreibe eine Stunde von 1 bis 12. Die Tageshälfte ist angegeben.

Name: _____ Datum: _____

Ab 12 Uhr



12 Uhr

Vor 12 Uhr



10 Uhr

Ab 12 Uhr



8 Uhr

Vor 12 Uhr



8 Uhr

Ab 12 Uhr



4 Uhr

Ab 12 Uhr



1 Uhr

Volle Stunden ablesen · Übungsheft 01

Lies die volle Stunde ab. Der kurze Zeiger zeigt die Stunden, der lange die Minuten. Schreibe eine Stunde von 1 bis 12. Die Tageshälfte ist angegeben.

Name: _____ Datum: _____

Vor 12 Uhr



6 Uhr

Vor 12 Uhr



8 Uhr

Ab 12 Uhr



8 Uhr

Ab 12 Uhr



3 Uhr

Ab 12 Uhr



6 Uhr

Ab 12 Uhr



12 Uhr

Volle Stunden ablesen · Übungsheft 01

Lies die volle Stunde ab. Der kurze Zeiger zeigt die Stunden, der lange die Minuten. Schreibe eine Stunde von 1 bis 12. Die Tageshälfte ist angegeben.

Name: _____ Datum: _____

Vor 12 Uhr



9 Uhr

Vor 12 Uhr



7 Uhr

Ab 12 Uhr



1 Uhr

Vor 12 Uhr



11 Uhr

Ab 12 Uhr



12 Uhr

Ab 12 Uhr



3 Uhr