Volle Stunden ablesen · Übungsheft 01

Lies die volle Stunde ab. Der kurze Zeiger zeigt die Stunden, der lange die Minuten. Schreibe eine Stunde von 1 bis 12. Die Tageshälfte ist angegeben.

Name: _____ Datum: _____

Ab 12 Uhr



Vor 12 Uhr



Ab 12 Uhr



Ab 12 Uhr



Ab 12 Uhr



Ab 12 Uhr



Volle Stunden ablesen · Übungsheft 01

Lies die volle Stunde ab. Der kurze Zeiger zeigt die Stunden, der lange die Minuten. Schreibe eine Stunde von 1 bis 12. Die Tageshälfte ist angegeben.

Name: _____ Datum: _____

Vor 12 Uhr



Vor 12 Uhr



Ab 12 Uhr



Ab 12 Uhr



Ab 12 Uhr



Vor 12 Uhr



Volle Stunden ablesen · Übungsheft 01

Lies die volle Stunde ab. Der kurze Zeiger zeigt die Stunden, der lange die Minuten. Schreibe eine Stunde von 1 bis 12. Die Tageshälfte ist angegeben.

Name: _____ Datum: _____

Ab 12 Uhr



Vor 12 Uhr



Ab 12 Uhr



Vor 12 Uhr



Ab 12 Uhr



Ab 12 Uhr



Volle Stunden ablesen · Übungsheft 01

Lies die volle Stunde ab. Der kurze Zeiger zeigt die Stunden, der lange die Minuten. Schreibe eine Stunde von 1 bis 12. Die Tageshälfte ist angegeben.

Name: _____ Datum: _____

Vor 12 Uhr



Vor 12 Uhr



Ab 12 Uhr



Ab 12 Uhr



Ab 12 Uhr



Ab 12 Uhr



Volle Stunden ablesen · Übungsheft 01

Lies die volle Stunde ab. Der kurze Zeiger zeigt die Stunden, der lange die Minuten. Schreibe eine Stunde von 1 bis 12. Die Tageshälfte ist angegeben.

Name: _____ Datum: _____

Vor 12 Uhr



Vor 12 Uhr



Ab 12 Uhr



Vor 12 Uhr



Ab 12 Uhr



Ab 12 Uhr

