Avancer par quarts d'heure · Cahier 03

Lis l'heure de départ et ajoute la durée indiquée en minutes, par pas d'un quart d'heure. Écris l'heure d'arrivée sur 24 heures.

Prénom: _____ Date: _____

À partir de midi



+ 90 min

À partir de midi



+ 30 min

Avant midi



+ 30 min

À partir de midi



+ 75 min

Avant midi



+ 45 min

À partir de midi



+ 75 min

Avancer par quarts d'heure · Cahier 03

Lis l'heure de départ et ajoute la durée indiquée en minutes, par pas d'un quart d'heure. Écris l'heure d'arrivée sur 24 heures.

Prénom: _____ Date: _____

À partir de midi



+ 75 min

À partir de midi



+ 75 min

À partir de midi



+ 60 min

À partir de midi



+ 15 min

À partir de midi



+ 30 min

Avant midi



+ 15 min

Avancer par quarts d'heure · Cahier 03

Lis l'heure de départ et ajoute la durée indiquée en minutes, par pas d'un quart d'heure. Écris l'heure d'arrivée sur 24 heures.

Prénom: _____ Date: _____

À partir de midi



+ 90 min

Avant midi



+ 90 min

À partir de midi



+ 90 min

Avant midi



+ 15 min

À partir de midi



+ 15 min

Avant midi



+ 30 min

Avancer par quarts d'heure · Cahier 03

Lis l'heure de départ et ajoute la durée indiquée en minutes, par pas d'un quart d'heure. Écris l'heure d'arrivée sur 24 heures.

Prénom: _____ Date: _____

À partir de midi



+ 60 min

À partir de midi



+ 30 min

À partir de midi



+ 15 min

Avant midi



+ 45 min

À partir de midi



+ 45 min

Avant midi



+ 45 min

Avancer par quarts d'heure · Cahier 03

Lis l'heure de départ et ajoute la durée indiquée en minutes, par pas d'un quart d'heure. Écris l'heure d'arrivée sur 24 heures.

Prénom: _____ Date: _____

Avant midi



+ 60 min

Avant midi



+ 60 min

Avant midi



+ 75 min

Avant midi



+ 90 min

À partir de midi



+ 90 min

À partir de midi



+ 15 min