Avanzar de cuarto en cuarto · Cuaderno 03

Lee la hora inicial y añade los minutos indicados de cuarto en cuarto de hora. Escribe la hora final en formato de 12 o 24 horas.

Nombre: _____ Fecha: _____

Desde el mediodía



+ 90 min

14:30
2:30 p.m.

Desde el mediodía



+ 30 min

17:45
5:45 p.m.

Antes del mediodía



+ 30 min

06:30
6:30 a.m.

Desde el mediodía



+ 75 min

17:15
5:15 p.m.

Antes del mediodía



+ 45 min

08:45
8:45 a.m.

Desde el mediodía



+ 75 min

18:00
6:00 p.m.

Avanzar de cuarto en cuarto · Cuaderno 03

Lee la hora inicial y añade los minutos indicados de cuarto en cuarto de hora. Escribe la hora final en formato de 12 o 24 horas.

Nombre: _____ Fecha: _____

Desde el mediodía



+ 75 min

17:30
5:30 p.m.

Desde el mediodía



+ 75 min

19:00
7:00 p.m.

Desde el mediodía



+ 60 min

20:00
8:00 p.m.

Desde el mediodía



+ 15 min

15:45
3:45 p.m.

Desde el mediodía



+ 30 min

17:15
5:15 p.m.

Antes del mediodía



+ 15 min

08:00
8:00 a.m.

Avanzar de cuarto en cuarto · Cuaderno 03

Lee la hora inicial y añade los minutos indicados de cuarto en cuarto de hora. Escribe la hora final en formato de 12 o 24 horas.

Nombre: _____ Fecha: _____

Desde el mediodía



+ 90 min

15:15
3:15 p.m.

Antes del mediodía



+ 90 min

07:30
7:30 a.m.

Desde el mediodía



+ 90 min

21:15
9:15 p.m.

Antes del mediodía



+ 15 min

10:30
10:30 a.m.

Desde el mediodía



+ 15 min

16:45
4:45 p.m.

Antes del mediodía



+ 30 min

08:30
8:30 a.m.

Avanzar de cuarto en cuarto · Cuaderno 03

Lee la hora inicial y añade los minutos indicados de cuarto en cuarto de hora. Escribe la hora final en formato de 12 o 24 horas.

Nombre: _____ Fecha: _____

Desde el mediodía



+ 60 min

18:15
6:15 p.m.

Desde el mediodía



+ 30 min

16:00
4:00 p.m.

Desde el mediodía



+ 15 min

12:45
12:45 p.m.

Antes del mediodía



+ 45 min

09:45
9:45 a.m.

Desde el mediodía



+ 45 min

17:00
5:00 p.m.

Antes del mediodía



+ 45 min

06:45
6:45 a.m.

Avanzar de cuarto en cuarto · Cuaderno 03

Lee la hora inicial y añade los minutos indicados de cuarto en cuarto de hora. Escribe la hora final en formato de 12 o 24 horas.

Nombre: _____ Fecha: _____

Antes del mediodía



+ 60 min

10:30
10:30 a.m.

Antes del mediodía



+ 60 min

11:30
11:30 a.m.

Antes del mediodía



+ 75 min

11:00
11:00 a.m.

Antes del mediodía



+ 90 min

08:45
8:45 a.m.

Desde el mediodía



+ 90 min

22:00
10:00 p.m.

Desde el mediodía



+ 15 min

18:00
6:00 p.m.