Avanzar de cuarto en cuarto · Cuaderno 03

Lee la hora inicial y añade los minutos indicados de cuarto en cuarto de hora. Escribe la hora final en formato de 12 o 24 horas.

Nombre: _____ Fecha: _____

Desde el mediodía



+ 90 min

Desde el mediodía



+ 30 min

Antes del mediodía



+ 30 min

Desde el mediodía



+ 75 min

Antes del mediodía



+ 45 min

Desde el mediodía



+ 75 min

Avanzar de cuarto en cuarto · Cuaderno 03

Lee la hora inicial y añade los minutos indicados de cuarto en cuarto de hora. Escribe la hora final en formato de 12 o 24 horas.

Nombre: _____ Fecha: _____

Desde el mediodía



+ 75 min

Desde el mediodía



+ 75 min

Desde el mediodía



+ 60 min

Desde el mediodía



+ 15 min

Desde el mediodía



+ 30 min

Antes del mediodía



+ 15 min

Avanzar de cuarto en cuarto · Cuaderno 03

Lee la hora inicial y añade los minutos indicados de cuarto en cuarto de hora. Escribe la hora final en formato de 12 o 24 horas.

Nombre: _____ Fecha: _____

Desde el mediodía



+ 90 min

Antes del mediodía



+ 90 min

Desde el mediodía



+ 90 min

Antes del mediodía



+ 15 min

Desde el mediodía



+ 15 min

Antes del mediodía



+ 30 min

Avanzar de cuarto en cuarto · Cuaderno 03

Lee la hora inicial y añade los minutos indicados de cuarto en cuarto de hora. Escribe la hora final en formato de 12 o 24 horas.

Nombre: _____ Fecha: _____

Desde el mediodía



+ 60 min

Desde el mediodía



+ 30 min

Desde el mediodía



+ 15 min

Antes del mediodía



+ 45 min

Desde el mediodía



+ 45 min

Antes del mediodía



+ 45 min

Avanzar de cuarto en cuarto · Cuaderno 03

Lee la hora inicial y añade los minutos indicados de cuarto en cuarto de hora. Escribe la hora final en formato de 12 o 24 horas.

Nombre: _____ Fecha: _____

Antes del mediodía



+ 60 min

Antes del mediodía



+ 60 min

Antes del mediodía



+ 75 min

Antes del mediodía



+ 90 min

Desde el mediodía



+ 90 min

Desde el mediodía



+ 15 min