Halbe Stunden und Viertelstunden · Übungsheft 01

Lies halbe und Viertelstunden. Halb sechs bedeutet 5:30; Viertel nach fünf 5:15. Schreibe die Uhrzeit im 24-Stunden-Format.

Name: _____ Datum: _____

Vor 12 Uhr



09:00 Uhr
9:00 a.m.

Vor 12 Uhr



10:15 Uhr
10:15 a.m.

Ab 12 Uhr



14:30 Uhr
2:30 p.m.

Ab 12 Uhr



19:45 Uhr
7:45 p.m.

Ab 12 Uhr



16:00 Uhr
4:00 p.m.

Ab 12 Uhr



18:15 Uhr
6:15 p.m.

Halbe Stunden und Viertelstunden · Übungsheft 01

Lies halbe und Viertelstunden. Halb sechs bedeutet 5:30; Viertel nach fünf 5:15. Schreibe die Uhrzeit im 24-Stunden-Format.

Name: _____ Datum: _____

Vor 12 Uhr



07:00 Uhr
7:00 a.m.

Ab 12 Uhr



13:15 Uhr
1:15 p.m.

Ab 12 Uhr



18:30 Uhr
6:30 p.m.

Ab 12 Uhr



15:45 Uhr
3:45 p.m.

Ab 12 Uhr



12:00 Uhr
12:00 p.m.

Vor 12 Uhr



11:15 Uhr
11:15 a.m.

Halbe Stunden und Viertelstunden · Übungsheft 01

Lies halbe und Viertelstunden. Halb sechs bedeutet 5:30; Viertel nach fünf 5:15. Schreibe die Uhrzeit im 24-Stunden-Format.

Name: _____ Datum: _____

Ab 12 Uhr



19:00 Uhr
7:00 p.m.

Vor 12 Uhr



10:15 Uhr
10:15 a.m.

Ab 12 Uhr



13:30 Uhr
1:30 p.m.

Ab 12 Uhr



16:45 Uhr
4:45 p.m.

Ab 12 Uhr



20:00 Uhr
8:00 p.m.

Ab 12 Uhr



15:15 Uhr
3:15 p.m.

Halbe Stunden und Viertelstunden · Übungsheft 01

Lies halbe und Viertelstunden. Halb sechs bedeutet 5:30; Viertel nach fünf 5:15. Schreibe die Uhrzeit im 24-Stunden-Format.

Name: _____ Datum: _____

Vor 12 Uhr



11:00 Uhr
11:00 a.m.

Vor 12 Uhr



09:15 Uhr
9:15 a.m.

Vor 12 Uhr



10:30 Uhr
10:30 a.m.

Ab 12 Uhr



13:45 Uhr
1:45 p.m.

Ab 12 Uhr



20:00 Uhr
8:00 p.m.

Ab 12 Uhr



18:15 Uhr
6:15 p.m.

Halbe Stunden und Viertelstunden · Übungsheft 01

Lies halbe und Viertelstunden. Halb sechs bedeutet 5:30; Viertel nach fünf 5:15. Schreibe die Uhrzeit im 24-Stunden-Format.

Name: _____ Datum: _____

Ab 12 Uhr



14:00 Uhr
2:00 p.m.

Vor 12 Uhr



09:15 Uhr
9:15 a.m.

Ab 12 Uhr



16:30 Uhr
4:30 p.m.

Vor 12 Uhr



11:45 Uhr
11:45 a.m.

Vor 12 Uhr



07:00 Uhr
7:00 a.m.

Ab 12 Uhr



19:15 Uhr
7:15 p.m.