Halbe Stunden und Viertelstunden · Übungsheft 01

Lies halbe und Viertelstunden. Halb sechs bedeutet 5:30; Viertel nach fünf 5:15. Schreibe die Uhrzeit im 24-Stunden-Format.

Name: _____ Datum: _____

Vor 12 Uhr



Vor 12 Uhr



Ab 12 Uhr



Ab 12 Uhr



Ab 12 Uhr



Ab 12 Uhr



Halbe Stunden und Viertelstunden · Übungsheft 01

Lies halbe und Viertelstunden. Halb sechs bedeutet 5:30; Viertel nach fünf 5:15. Schreibe die Uhrzeit im 24-Stunden-Format.

Name: _____ Datum: _____

Vor 12 Uhr



Ab 12 Uhr



Ab 12 Uhr



Ab 12 Uhr



Ab 12 Uhr



Vor 12 Uhr



Halbe Stunden und Viertelstunden · Übungsheft 01

Lies halbe und Viertelstunden. Halb sechs bedeutet 5:30; Viertel nach fünf 5:15. Schreibe die Uhrzeit im 24-Stunden-Format.

Name: _____ Datum: _____

Ab 12 Uhr



Vor 12 Uhr



Ab 12 Uhr



Ab 12 Uhr



Ab 12 Uhr



Ab 12 Uhr



Halbe Stunden und Viertelstunden · Übungsheft 01

Lies halbe und Viertelstunden. Halb sechs bedeutet 5:30; Viertel nach fünf 5:15. Schreibe die Uhrzeit im 24-Stunden-Format.

Name: _____ Datum: _____

Vor 12 Uhr



Vor 12 Uhr



Vor 12 Uhr



Ab 12 Uhr



Ab 12 Uhr



Ab 12 Uhr



Halbe Stunden und Viertelstunden · Übungsheft 01

Lies halbe und Viertelstunden. Halb sechs bedeutet 5:30; Viertel nach fünf 5:15. Schreibe die Uhrzeit im 24-Stunden-Format.

Name: _____ Datum: _____

Ab 12 Uhr



Vor 12 Uhr



Ab 12 Uhr



Vor 12 Uhr



Vor 12 Uhr



Ab 12 Uhr

