Heures et demi-heures · Cahier 02

Lis les heures entières et les demi-heures. La grande aiguille pointe vers 12 ou 6. Tiens compte du moment de la journée et écris sur 24 heures.

Prénom: _____ Date: _____

Avant midi



À partir de midi



À partir de midi



Avant midi



À partir de midi



À partir de midi



Heures et demi-heures · Cahier 02

Lis les heures entières et les demi-heures. La grande aiguille pointe vers 12 ou 6. Tiens compte du moment de la journée et écris sur 24 heures.

Prénom: _____ Date: _____

À partir de midi



Avant midi



À partir de midi



Avant midi



Avant midi



À partir de midi



Heures et demi-heures · Cahier 02

Lis les heures entières et les demi-heures. La grande aiguille pointe vers 12 ou 6. Tiens compte du moment de la journée et écris sur 24 heures.

Prénom: _____ Date: _____

À partir de midi



Avant midi



Avant midi



À partir de midi



À partir de midi



Avant midi



Heures et demi-heures · Cahier 02

Lis les heures entières et les demi-heures. La grande aiguille pointe vers 12 ou 6. Tiens compte du moment de la journée et écris sur 24 heures.

Prénom: _____ Date: _____

Avant midi



À partir de midi



Avant midi



À partir de midi



À partir de midi



À partir de midi



Heures et demi-heures · Cahier 02

Lis les heures entières et les demi-heures. La grande aiguille pointe vers 12 ou 6. Tiens compte du moment de la journée et écris sur 24 heures.

Prénom: _____ Date: _____

À partir de midi



Avant midi



À partir de midi



Avant midi



Avant midi



À partir de midi

