Horas en punto y medias horas · Cuaderno 02

Lee las horas en punto y las medias horas. El minutero apunta al 12 o al 6. Usa el momento del día indicado; puedes escribir en 12 o 24 horas.

Nombre: _____ Fecha: _____

Antes del mediodía



Desde el mediodía



Desde el mediodía



Antes del mediodía



Desde el mediodía



Desde el mediodía



Horas en punto y medias horas · Cuaderno 02

Lee las horas en punto y las medias horas. El minutero apunta al 12 o al 6. Usa el momento del día indicado; puedes escribir en 12 o 24 horas.

Nombre: _____ Fecha: _____

Desde el mediodía



Antes del mediodía



Desde el mediodía



Antes del mediodía



Antes del mediodía



Desde el mediodía



Horas en punto y medias horas · Cuaderno 02

Lee las horas en punto y las medias horas. El minutero apunta al 12 o al 6. Usa el momento del día indicado; puedes escribir en 12 o 24 horas.

Nombre: _____ Fecha: _____

Desde el mediodía



Antes del mediodía



Antes del mediodía



Desde el mediodía



Desde el mediodía



Antes del mediodía



Horas en punto y medias horas · Cuaderno 02

Lee las horas en punto y las medias horas. El minutero apunta al 12 o al 6. Usa el momento del día indicado; puedes escribir en 12 o 24 horas.

Nombre: _____ Fecha: _____

Antes del mediodía



Desde el mediodía



Antes del mediodía



Desde el mediodía



Desde el mediodía



Desde el mediodía



Horas en punto y medias horas · Cuaderno 02

Lee las horas en punto y las medias horas. El minutero apunta al 12 o al 6. Usa el momento del día indicado; puedes escribir en 12 o 24 horas.

Nombre: _____ Fecha: _____

Desde el mediodía



Antes del mediodía



Desde el mediodía



Antes del mediodía



Antes del mediodía



Desde el mediodía

