Volle und halbe Stunden · Übungsheft 02

Lies volle und halbe Stunden ab. Der Minutenzeiger zeigt auf 12 oder 6. Beachte die Tageshälfte und schreibe die Uhrzeit im 24-Stunden-Format.

Name: _____ Datum: _____

Vor 12 Uhr



Ab 12 Uhr



Ab 12 Uhr



Vor 12 Uhr



Ab 12 Uhr



Ab 12 Uhr



Volle und halbe Stunden · Übungsheft 02

Lies volle und halbe Stunden ab. Der Minutenzeiger zeigt auf 12 oder 6. Beachte die Tageshälfte und schreibe die Uhrzeit im 24-Stunden-Format.

Name: _____ Datum: _____

Ab 12 Uhr



Vor 12 Uhr



Ab 12 Uhr



Vor 12 Uhr



Vor 12 Uhr



Ab 12 Uhr



Volle und halbe Stunden · Übungsheft 02

Lies volle und halbe Stunden ab. Der Minutenzeiger zeigt auf 12 oder 6. Beachte die Tageshälfte und schreibe die Uhrzeit im 24-Stunden-Format.

Name: _____ Datum: _____

Ab 12 Uhr



Vor 12 Uhr



Vor 12 Uhr



Ab 12 Uhr



Ab 12 Uhr



Vor 12 Uhr



Volle und halbe Stunden · Übungsheft 02

Lies volle und halbe Stunden ab. Der Minutenzeiger zeigt auf 12 oder 6. Beachte die Tageshälfte und schreibe die Uhrzeit im 24-Stunden-Format.

Name: _____ Datum: _____

Vor 12 Uhr



Ab 12 Uhr



Vor 12 Uhr



Ab 12 Uhr



Ab 12 Uhr



Ab 12 Uhr



Volle und halbe Stunden · Übungsheft 02

Lies volle und halbe Stunden ab. Der Minutenzeiger zeigt auf 12 oder 6. Beachte die Tageshälfte und schreibe die Uhrzeit im 24-Stunden-Format.

Name: _____ Datum: _____

Ab 12 Uhr



Vor 12 Uhr



Ab 12 Uhr



Vor 12 Uhr



Vor 12 Uhr



Ab 12 Uhr

