Retrouver l'heure de départ · Cahier 04

L'horloge montre l'heure d'arrivée. Retranche les minutes indiquées pour trouver l'heure de départ. Écris sur 24 heures. Tout se passe le même jour.

Prénom: _____ Date: _____

Avant midi



- 16 min

06 h 04
6:04 a.m.

Avant midi



- 73 min

10 h 15
10:15 a.m.

Avant midi



- 102 min

06 h 33
6:33 a.m.

À partir de midi



- 1 min

12 h 07
12:07 p.m.

À partir de midi



- 91 min

12 h 55
12:55 p.m.

À partir de midi



- 18 min

19 h 48
7:48 p.m.

Retrouver l'heure de départ · Cahier 04

L'horloge montre l'heure d'arrivée. Retranche les minutes indiquées pour trouver l'heure de départ. Écris sur 24 heures. Tout se passe le même jour.

Prénom: _____ Date: _____

À partir de midi



- 22 min

14 h 01
2:01 p.m.

Avant midi



- 111 min

06 h 32
6:32 a.m.

À partir de midi



- 29 min

12 h 23
12:23 p.m.

À partir de midi



- 99 min

13 h 02
1:02 p.m.

À partir de midi



- 73 min

18 h 49
6:49 p.m.

À partir de midi



- 38 min

14 h 33
2:33 p.m.

Retrouver l'heure de départ · Cahier 04

L'horloge montre l'heure d'arrivée. Retranche les minutes indiquées pour trouver l'heure de départ. Écris sur 24 heures. Tout se passe le même jour.

Prénom: _____ Date: _____

À partir de midi



- 115 min

11 h 29
11:29 a.m.

À partir de midi



- 2 min

13 h 23
1:23 p.m.

À partir de midi



- 79 min

17 h 38
5:38 p.m.

À partir de midi



- 95 min

17 h 39
5:39 p.m.

Avant midi



- 26 min

08 h 27
8:27 a.m.

Avant midi



- 71 min

06 h 52
6:52 a.m.

Retrouver l'heure de départ · Cahier 04

L'horloge montre l'heure d'arrivée. Retranche les minutes indiquées pour trouver l'heure de départ. Écris sur 24 heures. Tout se passe le même jour.

Prénom: _____ Date: _____

À partir de midi



- 106 min

18 h 25
6:25 p.m.

À partir de midi



- 60 min

16 h 21
4:21 p.m.

À partir de midi



- 52 min

12 h 24
12:24 p.m.

Avant midi



- 48 min

10 h 10
10:10 a.m.

Avant midi



- 107 min

06 h 22
6:22 a.m.

Avant midi



- 60 min

06 h 29
6:29 a.m.

Retrouver l'heure de départ · Cahier 04

L'horloge montre l'heure d'arrivée. Retranche les minutes indiquées pour trouver l'heure de départ. Écris sur 24 heures. Tout se passe le même jour.

Prénom: _____ Date: _____

À partir de midi



- 15 min

15 h 37
3:37 p.m.

Avant midi



- 39 min

06 h 59
6:59 a.m.

À partir de midi



- 70 min

11 h 26
11:26 a.m.

À partir de midi



- 6 min

18 h 14
6:14 p.m.

À partir de midi



- 29 min

19 h 10
7:10 p.m.

Avant midi



- 50 min

10 h 04
10:04 a.m.