Retrouver l'heure de départ · Cahier 04

L'horloge montre l'heure d'arrivée. Retranche les minutes indiquées pour trouver l'heure de départ. Écris sur 24 heures. Tout se passe le même jour.

Prénom: _____ Date: _____

Avant midi



- 16 min

Avant midi



- 73 min

Avant midi



- 102 min

À partir de midi



- 1 min

À partir de midi



- 91 min

À partir de midi



- 18 min

Retrouver l'heure de départ · Cahier 04

L'horloge montre l'heure d'arrivée. Retranche les minutes indiquées pour trouver l'heure de départ. Écris sur 24 heures. Tout se passe le même jour.

Prénom: _____ Date: _____

À partir de midi



- 22 min

Avant midi



- 111 min

À partir de midi



- 29 min

À partir de midi



- 99 min

À partir de midi



- 73 min

À partir de midi



- 38 min

Retrouver l'heure de départ · Cahier 04

L'horloge montre l'heure d'arrivée. Retranche les minutes indiquées pour trouver l'heure de départ. Écris sur 24 heures. Tout se passe le même jour.

Prénom: _____ Date: _____

À partir de midi



- 115 min

À partir de midi



- 2 min

À partir de midi



- 79 min

À partir de midi



- 95 min

Avant midi



- 26 min

Avant midi



- 71 min

Retrouver l'heure de départ · Cahier 04

L'horloge montre l'heure d'arrivée. Retranche les minutes indiquées pour trouver l'heure de départ. Écris sur 24 heures. Tout se passe le même jour.

Prénom: _____ Date: _____

À partir de midi



- 106 min

À partir de midi



- 60 min

À partir de midi



- 52 min

Avant midi



- 48 min

Avant midi



- 107 min

Avant midi



- 60 min

Retrouver l'heure de départ · Cahier 04

L'horloge montre l'heure d'arrivée. Retranche les minutes indiquées pour trouver l'heure de départ. Écris sur 24 heures. Tout se passe le même jour.

Prénom: _____ Date: _____

À partir de midi



- 15 min

Avant midi



- 39 min

À partir de midi



- 70 min

À partir de midi



- 6 min

À partir de midi



- 29 min

Avant midi



- 50 min