Encuentra la hora inicial · Cuaderno 04

El reloj muestra la hora final. Resta los minutos indicados para hallar la hora inicial. Usa el formato de 12 o 24 horas. Todo ocurre el mismo día.

Nombre: _____ Fecha: _____

Antes del mediodía



- 16 min

06:04
6:04 a.m.

Antes del mediodía



- 73 min

10:15
10:15 a.m.

Antes del mediodía



- 102 min

06:33
6:33 a.m.

Desde el mediodía



- 1 min

12:07
12:07 p.m.

Desde el mediodía



- 91 min

12:55
12:55 p.m.

Desde el mediodía



- 18 min

19:48
7:48 p.m.

Encuentra la hora inicial · Cuaderno 04

El reloj muestra la hora final. Resta los minutos indicados para hallar la hora inicial. Usa el formato de 12 o 24 horas. Todo ocurre el mismo día.

Nombre: _____ Fecha: _____

Desde el mediodía



- 22 min

14:01
2:01 p.m.

Antes del mediodía



- 111 min

06:32
6:32 a.m.

Desde el mediodía



- 29 min

12:23
12:23 p.m.

Desde el mediodía



- 99 min

13:02
1:02 p.m.

Desde el mediodía



- 73 min

18:49
6:49 p.m.

Desde el mediodía



- 38 min

14:33
2:33 p.m.

Encuentra la hora inicial · Cuaderno 04

El reloj muestra la hora final. Resta los minutos indicados para hallar la hora inicial. Usa el formato de 12 o 24 horas. Todo ocurre el mismo día.

Nombre: _____ Fecha: _____

Desde el mediodía



- 115 min

11:29
11:29 a.m.

Desde el mediodía



- 2 min

13:23
1:23 p.m.

Desde el mediodía



- 79 min

17:38
5:38 p.m.

Desde el mediodía



- 95 min

17:39
5:39 p.m.

Antes del mediodía



- 26 min

08:27
8:27 a.m.

Antes del mediodía



- 71 min

06:52
6:52 a.m.

Encuentra la hora inicial · Cuaderno 04

El reloj muestra la hora final. Resta los minutos indicados para hallar la hora inicial. Usa el formato de 12 o 24 horas. Todo ocurre el mismo día.

Nombre: _____ Fecha: _____

Desde el mediodía



- 106 min

18:25
6:25 p.m.

Desde el mediodía



- 60 min

16:21
4:21 p.m.

Desde el mediodía



- 52 min

12:24
12:24 p.m.

Antes del mediodía



- 48 min

10:10
10:10 a.m.

Antes del mediodía



- 107 min

06:22
6:22 a.m.

Antes del mediodía



- 60 min

06:29
6:29 a.m.

Encuentra la hora inicial · Cuaderno 04

El reloj muestra la hora final. Resta los minutos indicados para hallar la hora inicial. Usa el formato de 12 o 24 horas. Todo ocurre el mismo día.

Nombre: _____ Fecha: _____

Desde el mediodía



- 15 min

15:37
3:37 p.m.

Antes del mediodía



- 39 min

06:59
6:59 a.m.

Desde el mediodía



- 70 min

11:26
11:26 a.m.

Desde el mediodía



- 6 min

18:14
6:14 p.m.

Desde el mediodía



- 29 min

19:10
7:10 p.m.

Antes del mediodía



- 50 min

10:04
10:04 a.m.