Encuentra la hora inicial · Cuaderno 04

El reloj muestra la hora final. Resta los minutos indicados para hallar la hora inicial. Usa el formato de 12 o 24 horas. Todo ocurre el mismo día.

Nombre: _____ Fecha: _____

Antes del mediodía



- 16 min

Antes del mediodía



- 73 min

Antes del mediodía



- 102 min

Desde el mediodía



- 1 min

Desde el mediodía



- 91 min

Desde el mediodía



- 18 min

Encuentra la hora inicial · Cuaderno 04

El reloj muestra la hora final. Resta los minutos indicados para hallar la hora inicial. Usa el formato de 12 o 24 horas. Todo ocurre el mismo día.

Nombre: _____ Fecha: _____

Desde el mediodía



- 22 min

Antes del mediodía



- 111 min

Desde el mediodía



- 29 min

Desde el mediodía



- 99 min

Desde el mediodía



- 73 min

Desde el mediodía



- 38 min

Encuentra la hora inicial · Cuaderno 04

El reloj muestra la hora final. Resta los minutos indicados para hallar la hora inicial. Usa el formato de 12 o 24 horas. Todo ocurre el mismo día.

Nombre: _____ Fecha: _____

Desde el mediodía



- 115 min

Desde el mediodía



- 2 min

Desde el mediodía



- 79 min

Desde el mediodía



- 95 min

Antes del mediodía



- 26 min

Antes del mediodía



- 71 min

Encuentra la hora inicial · Cuaderno 04

El reloj muestra la hora final. Resta los minutos indicados para hallar la hora inicial. Usa el formato de 12 o 24 horas. Todo ocurre el mismo día.

Nombre: _____ Fecha: _____

Desde el mediodía



- 106 min

Desde el mediodía



- 60 min

Desde el mediodía



- 52 min

Antes del mediodía



- 48 min

Antes del mediodía



- 107 min

Antes del mediodía



- 60 min

Encuentra la hora inicial · Cuaderno 04

El reloj muestra la hora final. Resta los minutos indicados para hallar la hora inicial. Usa el formato de 12 o 24 horas. Todo ocurre el mismo día.

Nombre: _____ Fecha: _____

Desde el mediodía



- 15 min

Antes del mediodía



- 39 min

Desde el mediodía



- 70 min

Desde el mediodía



- 6 min

Desde el mediodía



- 29 min

Antes del mediodía



- 50 min