Sumar minutos a la hora · Cuaderno 03

Lee la hora inicial al minuto. Añade los minutos indicados y escribe la hora final en formato de 12 o 24 horas. Comprueba si cambia la hora.

Nombre: _____ Fecha: _____

Desde el mediodía



+ 24 min

16:48
4:48 p.m.

Antes del mediodía



+ 57 min

11:18
11:18 a.m.

Antes del mediodía



+ 12 min

10:48
10:48 a.m.

Desde el mediodía



+ 4 min

19:00
7:00 p.m.

Desde el mediodía



+ 37 min

14:59
2:59 p.m.

Desde el mediodía



+ 57 min

13:18
1:18 p.m.

Sumar minutos a la hora · Cuaderno 03

Lee la hora inicial al minuto. Añade los minutos indicados y escribe la hora final en formato de 12 o 24 horas. Comprueba si cambia la hora.

Nombre: _____ Fecha: _____

Desde el mediodía



+ 47 min

13:08
1:08 p.m.

Desde el mediodía



+ 4 min

15:55
3:55 p.m.

Desde el mediodía



+ 16 min

14:50
2:50 p.m.

Desde el mediodía



+ 49 min

20:15
8:15 p.m.

Antes del mediodía



+ 51 min

07:49
7:49 a.m.

Antes del mediodía



+ 8 min

07:34
7:34 a.m.

Sumar minutos a la hora · Cuaderno 03

Lee la hora inicial al minuto. Añade los minutos indicados y escribe la hora final en formato de 12 o 24 horas. Comprueba si cambia la hora.

Nombre: _____ Fecha: _____

Desde el mediodía



+ 3 min

18:46
6:46 p.m.

Antes del mediodía



+ 29 min

06:43
6:43 a.m.

Desde el mediodía



+ 7 min

17:46
5:46 p.m.

Desde el mediodía

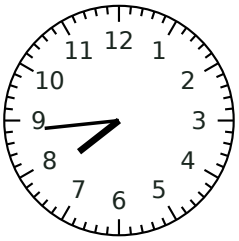

+ 33 min

20:17
8:17 p.m.

Desde el mediodía



+ 23 min

20:11
8:11 p.m.

Desde el mediodía



+ 39 min

17:55
5:55 p.m.

Sumar minutos a la hora · Cuaderno 03

Lee la hora inicial al minuto. Añade los minutos indicados y escribe la hora final en formato de 12 o 24 horas. Comprueba si cambia la hora.

Nombre: _____ Fecha: _____

Desde el mediodía



+ 46 min

19:12
7:12 p.m.

Desde el mediodía



+ 26 min

18:24
6:24 p.m.

Antes del mediodía



+ 53 min

08:36
8:36 a.m.

Desde el mediodía



+ 47 min

20:46
8:46 p.m.

Antes del mediodía



+ 51 min

11:02
11:02 a.m.

Antes del mediodía



+ 9 min

07:41
7:41 a.m.

Sumar minutos a la hora · Cuaderno 03

Lee la hora inicial al minuto. Añade los minutos indicados y escribe la hora final en formato de 12 o 24 horas. Comprueba si cambia la hora.

Nombre: _____ Fecha: _____

Desde el mediodía



+ 38 min

20:39
8:39 p.m.

Antes del mediodía



+ 33 min

07:29
7:29 a.m.

Antes del mediodía



+ 7 min

09:25
9:25 a.m.

Antes del mediodía



+ 9 min

09:32
9:32 a.m.

Antes del mediodía



+ 16 min

09:43
9:43 a.m.

Antes del mediodía



+ 21 min

09:47
9:47 a.m.