Sumar minutos a la hora · Cuaderno 03

Lee la hora inicial al minuto. Añade los minutos indicados y escribe la hora final en formato de 12 o 24 horas. Comprueba si cambia la hora.

Nombre: _____ Fecha: _____

Desde el mediodía



+ 24 min

Antes del mediodía



+ 57 min

Antes del mediodía



+ 12 min

Desde el mediodía



+ 4 min

Desde el mediodía



+ 37 min

Desde el mediodía



+ 57 min

Sumar minutos a la hora · Cuaderno 03

Lee la hora inicial al minuto. Añade los minutos indicados y escribe la hora final en formato de 12 o 24 horas. Comprueba si cambia la hora.

Nombre: _____ Fecha: _____

Desde el mediodía



+ 47 min

Desde el mediodía



+ 4 min

Desde el mediodía



+ 16 min

Desde el mediodía



+ 49 min

Antes del mediodía



+ 51 min

Antes del mediodía



+ 8 min

Sumar minutos a la hora · Cuaderno 03

Lee la hora inicial al minuto. Añade los minutos indicados y escribe la hora final en formato de 12 o 24 horas. Comprueba si cambia la hora.

Nombre: _____ Fecha: _____

Desde el mediodía



+ 3 min

Antes del mediodía



+ 29 min

Desde el mediodía



+ 7 min

Desde el mediodía

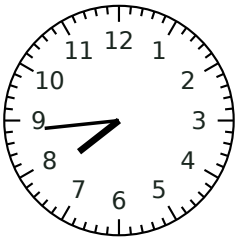

+ 33 min

Desde el mediodía



+ 23 min

Desde el mediodía



+ 39 min

Sumar minutos a la hora · Cuaderno 03

Lee la hora inicial al minuto. Añade los minutos indicados y escribe la hora final en formato de 12 o 24 horas. Comprueba si cambia la hora.

Nombre: _____ Fecha: _____

Desde el mediodía



+ 46 min

Desde el mediodía



+ 26 min

Antes del mediodía



+ 53 min

Desde el mediodía



+ 47 min

Antes del mediodía



+ 51 min

Antes del mediodía



+ 9 min

Sumar minutos a la hora · Cuaderno 03

Lee la hora inicial al minuto. Añade los minutos indicados y escribe la hora final en formato de 12 o 24 horas. Comprueba si cambia la hora.

Nombre: _____ Fecha: _____

Desde el mediodía



+ 38 min

Antes del mediodía



+ 33 min

Antes del mediodía



+ 7 min

Antes del mediodía



+ 9 min

Antes del mediodía



+ 16 min

Antes del mediodía



+ 21 min