Minuten zur Uhrzeit addieren · Übungsheft 03

Lies die Startzeit minutengenau ab. Addiere die angegebene Zeitspanne und schreibe die Endzeit im 24-Stunden-Format auf. Achte auf den Stundenwechsel.

Name: _____ Datum: _____

Ab 12 Uhr



+ 24 min

Vor 12 Uhr



+ 57 min

Vor 12 Uhr



+ 12 min

Ab 12 Uhr



+ 4 min

Ab 12 Uhr



+ 37 min

Ab 12 Uhr



+ 57 min

Minuten zur Uhrzeit addieren · Übungsheft 03

Lies die Startzeit minutengenau ab. Addiere die angegebene Zeitspanne und schreibe die Endzeit im 24-Stunden-Format auf. Achte auf den Stundenwechsel.

Name: _____ Datum: _____

Ab 12 Uhr



+ 47 min

Ab 12 Uhr



+ 4 min

Ab 12 Uhr



+ 16 min

Ab 12 Uhr



+ 49 min

Vor 12 Uhr



+ 51 min

Vor 12 Uhr



+ 8 min

Minuten zur Uhrzeit addieren · Übungsheft 03

Lies die Startzeit minutengenau ab. Addiere die angegebene Zeitspanne und schreibe die Endzeit im 24-Stunden-Format auf. Achte auf den Stundenwechsel.

Name: _____ Datum: _____

Ab 12 Uhr



+ 3 min

Vor 12 Uhr



+ 29 min

Ab 12 Uhr



+ 7 min

Ab 12 Uhr

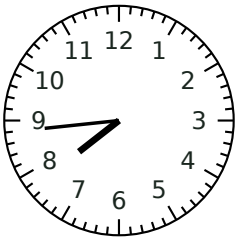

+ 33 min

Ab 12 Uhr



+ 23 min

Ab 12 Uhr



+ 39 min

Minuten zur Uhrzeit addieren · Übungsheft 03

Lies die Startzeit minutengenau ab. Addiere die angegebene Zeitspanne und schreibe die Endzeit im 24-Stunden-Format auf. Achte auf den Stundenwechsel.

Name: _____ Datum: _____

Ab 12 Uhr



+ 46 min

Ab 12 Uhr



+ 26 min

Vor 12 Uhr



+ 53 min

Ab 12 Uhr



+ 47 min

Vor 12 Uhr



+ 51 min

Vor 12 Uhr



+ 9 min

Minuten zur Uhrzeit addieren · Übungsheft 03

Lies die Startzeit minutengenau ab. Addiere die angegebene Zeitspanne und schreibe die Endzeit im 24-Stunden-Format auf. Achte auf den Stundenwechsel.

Name: _____ Datum: _____

Ab 12 Uhr



+ 38 min

Vor 12 Uhr



+ 33 min

Vor 12 Uhr



+ 7 min

Vor 12 Uhr



+ 9 min

Vor 12 Uhr



+ 16 min

Vor 12 Uhr



+ 21 min