Quelques minutes plus tard · Cahier 02

Lis l'heure de départ puis ajoute la durée indiquée en minutes. Écris l'heure d'arrivée sur 24 heures. Vérifie le passage à l'heure suivante.

Prénom: _____ Date: _____

À partir de midi



+ 35 min

18 h 20
6:20 p.m.

À partir de midi



+ 15 min

17 h 45
5:45 p.m.

À partir de midi



+ 45 min

13 h 15
1:15 p.m.

Avant midi



+ 55 min

10 h 45
10:45 a.m.

À partir de midi



+ 45 min

17 h 25
5:25 p.m.

À partir de midi



+ 30 min

17 h 15
5:15 p.m.

Quelques minutes plus tard · Cahier 02

Lis l'heure de départ puis ajoute la durée indiquée en minutes. Écris l'heure d'arrivée sur 24 heures. Vérifie le passage à l'heure suivante.

Prénom: _____ Date: _____

Avant midi



+ 40 min

10 h 30
10:30 a.m.

À partir de midi



+ 25 min

13 h 05
1:05 p.m.

À partir de midi



+ 15 min

15 h 05
3:05 p.m.

Avant midi



+ 50 min

06 h 55
6:55 a.m.

À partir de midi



+ 50 min

18 h 05
6:05 p.m.

Avant midi



+ 30 min

12 h 10
12:10 p.m.

Quelques minutes plus tard · Cahier 02

Lis l'heure de départ puis ajoute la durée indiquée en minutes. Écris l'heure d'arrivée sur 24 heures. Vérifie le passage à l'heure suivante.

Prénom: _____ Date: _____

À partir de midi



+ 45 min

12 h 45
12:45 p.m.

À partir de midi



+ 20 min

21 h 00
9:00 p.m.

À partir de midi



+ 40 min

20 h 35
8:35 p.m.

À partir de midi



+ 25 min

18 h 20
6:20 p.m.

À partir de midi



+ 30 min

16 h 35
4:35 p.m.

À partir de midi



+ 45 min

17 h 30
5:30 p.m.

Quelques minutes plus tard · Cahier 02

Lis l'heure de départ puis ajoute la durée indiquée en minutes. Écris l'heure d'arrivée sur 24 heures. Vérifie le passage à l'heure suivante.

Prénom: _____ Date: _____

À partir de midi



+ 45 min

13 h 35
1:35 p.m.

À partir de midi



+ 20 min

13 h 20
1:20 p.m.

Avant midi



+ 35 min

06 h 55
6:55 a.m.

À partir de midi



+ 50 min

17 h 40
5:40 p.m.

Avant midi



+ 35 min

09 h 10
9:10 a.m.

Avant midi



+ 35 min

11 h 45
11:45 a.m.

Quelques minutes plus tard · Cahier 02

Lis l'heure de départ puis ajoute la durée indiquée en minutes. Écris l'heure d'arrivée sur 24 heures. Vérifie le passage à l'heure suivante.

Prénom: _____ Date: _____

À partir de midi



+ 25 min

14 h 25
2:25 p.m.

À partir de midi



+ 40 min

14 h 55
2:55 p.m.

À partir de midi



+ 50 min

14 h 30
2:30 p.m.

À partir de midi



+ 45 min

16 h 00
4:00 p.m.

Avant midi



+ 25 min

08 h 25
8:25 a.m.

À partir de midi



+ 25 min

15 h 45
3:45 p.m.