Minutos después: la hora final · Cuaderno 02

Lee la hora inicial y añade los minutos indicados. Escribe la hora final en formato de 12 o 24 horas. Comprueba si cambia la hora.

Nombre: _____ Fecha: _____

Desde el mediodía



+ 35 min

Desde el mediodía



+ 15 min

Desde el mediodía



+ 45 min

Antes del mediodía



+ 55 min

Desde el mediodía



+ 45 min

Desde el mediodía



+ 30 min

Minutos después: la hora final · Cuaderno 02

Lee la hora inicial y añade los minutos indicados. Escribe la hora final en formato de 12 o 24 horas. Comprueba si cambia la hora.

Nombre: _____ Fecha: _____

Antes del mediodía



+ 40 min

Desde el mediodía



+ 25 min

Desde el mediodía



+ 15 min

Antes del mediodía



+ 50 min

Desde el mediodía



+ 50 min

Antes del mediodía



+ 30 min

Minutos después: la hora final · Cuaderno 02

Lee la hora inicial y añade los minutos indicados. Escribe la hora final en formato de 12 o 24 horas. Comprueba si cambia la hora.

Nombre: _____ Fecha: _____

Desde el mediodía



+ 45 min

Desde el mediodía



+ 20 min

Desde el mediodía



+ 40 min

Desde el mediodía



+ 25 min

Desde el mediodía



+ 30 min

Desde el mediodía



+ 45 min

Minutos después: la hora final · Cuaderno 02

Lee la hora inicial y añade los minutos indicados. Escribe la hora final en formato de 12 o 24 horas. Comprueba si cambia la hora.

Nombre: _____ Fecha: _____

Desde el mediodía



+ 45 min

Desde el mediodía



+ 20 min

Antes del mediodía



+ 35 min

Desde el mediodía



+ 50 min

Antes del mediodía



+ 35 min

Antes del mediodía



+ 35 min

Minutos después: la hora final · Cuaderno 02

Lee la hora inicial y añade los minutos indicados. Escribe la hora final en formato de 12 o 24 horas. Comprueba si cambia la hora.

Nombre: _____ Fecha: _____

Desde el mediodía



+ 25 min

Desde el mediodía



+ 40 min

Desde el mediodía



+ 50 min

Desde el mediodía



+ 45 min

Antes del mediodía



+ 25 min

Desde el mediodía



+ 25 min