Minuten später: die Endzeit finden · Übungsheft 02

Lies die Startzeit ab und zähle die angegebenen Minuten weiter. Schreibe die Endzeit im 24-Stunden-Format auf. Achte auf den Stundenwechsel.

Name: _____ Datum: _____

Ab 12 Uhr



+ 35 min

18:20 Uhr
6:20 p.m.

Ab 12 Uhr



+ 15 min

17:45 Uhr
5:45 p.m.

Ab 12 Uhr



+ 45 min

13:15 Uhr
1:15 p.m.

Vor 12 Uhr



+ 55 min

10:45 Uhr
10:45 a.m.

Ab 12 Uhr



+ 45 min

17:25 Uhr
5:25 p.m.

Ab 12 Uhr



+ 30 min

17:15 Uhr
5:15 p.m.

Minuten später: die Endzeit finden · Übungsheft 02

Lies die Startzeit ab und zähle die angegebenen Minuten weiter. Schreibe die Endzeit im 24-Stunden-Format auf. Achte auf den Stundenwechsel.

Name: _____ Datum: _____

Vor 12 Uhr



+ 40 min

10:30 Uhr
10:30 a.m.

Ab 12 Uhr



+ 25 min

13:05 Uhr
1:05 p.m.

Ab 12 Uhr



+ 15 min

15:05 Uhr
3:05 p.m.

Vor 12 Uhr



+ 50 min

06:55 Uhr
6:55 a.m.

Ab 12 Uhr



+ 50 min

18:05 Uhr
6:05 p.m.

Vor 12 Uhr



+ 30 min

12:10 Uhr
12:10 p.m.

Minuten später: die Endzeit finden · Übungsheft 02

Lies die Startzeit ab und zähle die angegebenen Minuten weiter. Schreibe die Endzeit im 24-Stunden-Format auf. Achte auf den Stundenwechsel.

Name: _____ Datum: _____

Ab 12 Uhr



+ 45 min

12:45 Uhr
12:45 p.m.

Ab 12 Uhr



+ 20 min

21:00 Uhr
9:00 p.m.

Ab 12 Uhr



+ 40 min

20:35 Uhr
8:35 p.m.

Ab 12 Uhr



+ 25 min

18:20 Uhr
6:20 p.m.

Ab 12 Uhr



+ 30 min

16:35 Uhr
4:35 p.m.

Ab 12 Uhr



+ 45 min

17:30 Uhr
5:30 p.m.

Minuten später: die Endzeit finden · Übungsheft 02

Lies die Startzeit ab und zähle die angegebenen Minuten weiter. Schreibe die Endzeit im 24-Stunden-Format auf. Achte auf den Stundenwechsel.

Name: _____ Datum: _____

Ab 12 Uhr



+ 45 min

13:35 Uhr
1:35 p.m.

Ab 12 Uhr



+ 20 min

13:20 Uhr
1:20 p.m.

Vor 12 Uhr



+ 35 min

06:55 Uhr
6:55 a.m.

Ab 12 Uhr



+ 50 min

17:40 Uhr
5:40 p.m.

Vor 12 Uhr



+ 35 min

09:10 Uhr
9:10 a.m.

Vor 12 Uhr



+ 35 min

11:45 Uhr
11:45 a.m.

Minuten später: die Endzeit finden · Übungsheft 02

Lies die Startzeit ab und zähle die angegebenen Minuten weiter. Schreibe die Endzeit im 24-Stunden-Format auf. Achte auf den Stundenwechsel.

Name: _____ Datum: _____

Ab 12 Uhr



+ 25 min

14:25 Uhr
2:25 p.m.

Ab 12 Uhr



+ 40 min

14:55 Uhr
2:55 p.m.

Ab 12 Uhr



+ 50 min

14:30 Uhr
2:30 p.m.

Ab 12 Uhr



+ 45 min

16:00 Uhr
4:00 p.m.

Vor 12 Uhr



+ 25 min

08:25 Uhr
8:25 a.m.

Ab 12 Uhr



+ 25 min

15:45 Uhr
3:45 p.m.