Minuten später: die Endzeit finden · Übungsheft 02

Lies die Startzeit ab und zähle die angegebenen Minuten weiter. Schreibe die Endzeit im 24-Stunden-Format auf. Achte auf den Stundenwechsel.

Name: _____ Datum: _____

Ab 12 Uhr



+ 35 min

Ab 12 Uhr



+ 15 min

Ab 12 Uhr



+ 45 min

Vor 12 Uhr



+ 55 min

Ab 12 Uhr



+ 45 min

Ab 12 Uhr



+ 30 min

Minuten später: die Endzeit finden · Übungsheft 02

Lies die Startzeit ab und zähle die angegebenen Minuten weiter. Schreibe die Endzeit im 24-Stunden-Format auf. Achte auf den Stundenwechsel.

Name: _____ Datum: _____

Vor 12 Uhr



+ 40 min

Ab 12 Uhr



+ 25 min

Ab 12 Uhr



+ 15 min

Vor 12 Uhr



+ 50 min

Ab 12 Uhr



+ 50 min

Vor 12 Uhr



+ 30 min

Minuten später: die Endzeit finden · Übungsheft 02

Lies die Startzeit ab und zähle die angegebenen Minuten weiter. Schreibe die Endzeit im 24-Stunden-Format auf. Achte auf den Stundenwechsel.

Name: _____ Datum: _____

Ab 12 Uhr



+ 45 min

Ab 12 Uhr



+ 20 min

Ab 12 Uhr



+ 40 min

Ab 12 Uhr



+ 25 min

Ab 12 Uhr



+ 30 min

Ab 12 Uhr



+ 45 min

Minuten später: die Endzeit finden · Übungsheft 02

Lies die Startzeit ab und zähle die angegebenen Minuten weiter. Schreibe die Endzeit im 24-Stunden-Format auf. Achte auf den Stundenwechsel.

Name: _____ Datum: _____

Ab 12 Uhr



+ 45 min

Ab 12 Uhr



+ 20 min

Vor 12 Uhr



+ 35 min

Ab 12 Uhr



+ 50 min

Vor 12 Uhr



+ 35 min

Vor 12 Uhr



+ 35 min

Minuten später: die Endzeit finden · Übungsheft 02

Lies die Startzeit ab und zähle die angegebenen Minuten weiter. Schreibe die Endzeit im 24-Stunden-Format auf. Achte auf den Stundenwechsel.

Name: _____ Datum: _____

Ab 12 Uhr



+ 25 min

Ab 12 Uhr



+ 40 min

Ab 12 Uhr



+ 50 min

Ab 12 Uhr



+ 45 min

Vor 12 Uhr



+ 25 min

Ab 12 Uhr



+ 25 min