Finde vier Pfeile · Klasse 3 · Übungsheft 03

Umrahme jedes Quadrat aus 2 × 2 Feldern mit vier verschiedenen Pfeilen: nach oben, rechts, unten und links. Die Quadrate dürfen Felder gemeinsam haben.

Name: _____ Datum: _____

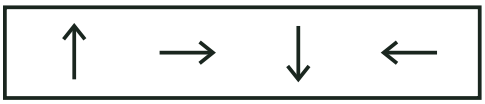



Finde vier Pfeile · Klasse 3 · Übungsheft 03

Umrahme jedes Quadrat aus 2 × 2 Feldern mit vier verschiedenen Pfeilen: nach oben, rechts, unten und links. Die Quadrate dürfen Felder gemeinsam haben.

Name: _____ Datum: _____

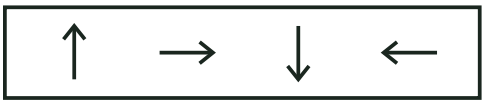



Finde vier Pfeile · Klasse 3 · Übungsheft 03

Umrahme jedes Quadrat aus 2 × 2 Feldern mit vier verschiedenen Pfeilen: nach oben, rechts, unten und links. Die Quadrate dürfen Felder gemeinsam haben.

Name: _____ Datum: _____

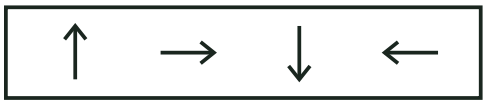



Finde vier Pfeile · Klasse 3 · Übungsheft 03

Umrahme jedes Quadrat aus 2 × 2 Feldern mit vier verschiedenen Pfeilen: nach oben, rechts, unten und links. Die Quadrate dürfen Felder gemeinsam haben.

Name: _____ Datum: _____

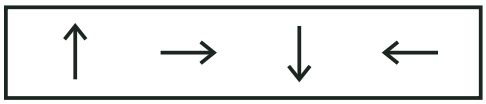



Finde vier Pfeile · Klasse 3 · Übungsheft 03

Umrahme jedes Quadrat aus 2 × 2 Feldern mit vier verschiedenen Pfeilen: nach oben, rechts, unten und links. Die Quadrate dürfen Felder gemeinsam haben.

Name: _____ Datum: _____

