Finde vier Pfeile · Klasse 3 · Übungsheft 01

Umrahme jedes Quadrat aus 2 × 2 Feldern mit vier verschiedenen Pfeilen: nach oben, rechts, unten und links. Die Quadrate dürfen Felder gemeinsam haben.

Name: _____ Datum: _____

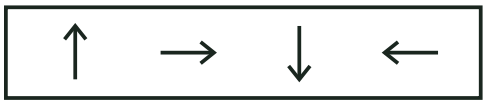



Finde vier Pfeile · Klasse 3 · Übungsheft 01

Umrahme jedes Quadrat aus 2 × 2 Feldern mit vier verschiedenen Pfeilen: nach oben, rechts, unten und links. Die Quadrate dürfen Felder gemeinsam haben.

Name: _____ Datum: _____

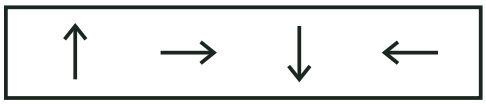



Finde vier Pfeile · Klasse 3 · Übungsheft 01

Umrahme jedes Quadrat aus 2 × 2 Feldern mit vier verschiedenen Pfeilen: nach oben, rechts, unten und links. Die Quadrate dürfen Felder gemeinsam haben.

Name: _____ Datum: _____

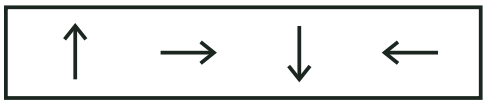



Finde vier Pfeile · Klasse 3 · Übungsheft 01

Umrahme jedes Quadrat aus 2 × 2 Feldern mit vier verschiedenen Pfeilen: nach oben, rechts, unten und links. Die Quadrate dürfen Felder gemeinsam haben.

Name: _____ Datum: _____

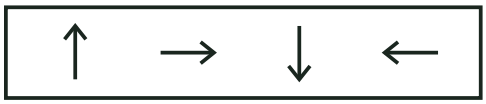



Finde vier Pfeile · Klasse 3 · Übungsheft 01

Umrahme jedes Quadrat aus 2 × 2 Feldern mit vier verschiedenen Pfeilen: nach oben, rechts, unten und links. Die Quadrate dürfen Felder gemeinsam haben.

Name: _____ Datum: _____

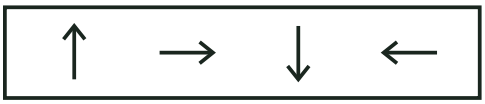

→	↓	→	→	↑	←	↑	↑	↑	←
←	→	←	→	↑	←	→	→	↑	↑
↑	↓	↑	↑	↑	→	↑	↑	→	←
↑	↓	←	↑	↓	←	↑	→	→	↑
→	↑	→	↓	→	↑	←	→	↑	→
↑	↑	↑	↑	↓	←	↓	↑	↓	↑
←	↑	←	↑	↓	↓	→	↑	↓	↑
↓	↑	↑	→	↓	←	↓	←	←	↑
↑	→	↑	←	↓	↑	→	→	↓	↑
→	→	↑	↓	←	←	↑	←	←	↓